¿Qué pasa en el otoño?
Ocurren furiosos huracanes.

¿Qué daños hacen estos huracanes?
Muchas veces derriban casas, se llevan de raíz plantaciones enteras, y causan numerosos naufragios.

¿Á qué gobierno pertenecieron las islas de Cuba y Puerto Rico?
Al de España, hasta fines de 1898. Puerto Rico ahora está bajo el dominio de los Estados Unidos.

LECCIÓN XXIX

CUBA Y PUERTO RICO.

¿Qué es Cuba?
La más extensa de las Grandes Antillas.

¿Cuáles son las provincias de la Isla de Cuba?
Pinar del Río, Habana, Matanzas, Santa Clara, Puerto Príncipe y Santiago de Cuba.

Otra división de la isla es la que la divide en tres regiones llamadas: *Occidental*, *Central* y *Oriental*, cada una de las cuales compuesta de dos provincias y éstas divididas en *partidos judiciales* y *términos municipales*.

¿Qué otra isla pertenece á la de Cuba?
Además de los 1,200 islotes, sin importancia que la rodean, le pertenece la *Isla de Pinos*, con unos 3,500 habitantes, que tiene más de 3,000 kilómetros cuadrados de superficie. Es de clima sano y con muy buenas aguas.

¿Cuál es la población de Cuba?
1,500,000 habitantes.

¿Qué superficie tiene?
Unos 121,683 kilómetros cuadrados ó 47,000 millas cuadradas.

¿Cuál es la capital de Cuba?
La Habana, con 230,000 almas, la ciudad más grande y puerto más importante de las Indias Occidentales.

¿Qué otras ciudades hay de importancia?
Matanzas, Santiago, Puerto Príncipe, Cárdenas, Nuevitas, Trinidad, Cienfuegos, etc.

¿Cuáles son las producciones de la isla?
Azúcar, tabaco, café y exquisitas frutas, en abundancia. Hay también varias minas, sobre todo de cobre.

¿Qué superficie tiene Puerto Rico?
Unos 7,677 kilómetros cuadrados ó 2,970 millas cuadradas.

¿Qué llama la atención en Puerto Rico?
Las magníficas carreteras que han construído los españoles, y de las cuales hay 5 de primer orden, 8 de segundo y 15 caminos vecinales.

¿Qué curiosidades naturales tiene la isla?
Algunas cuevas, como la de Aguasbuenas, la de la Pajita, la de Ciales, la de los Muertos y la del Consejo.

Tiene además la cascada de Santa Olalla ú Olaya y la del Salto del Cacique.

¿Cuántos habitantes tiene Puerto Rico?
Unos 950,000 habitantes.

¿Cuál es la capital de esta isla?
San Juan, con 30,000 habitantes, situada en una isleta y unida á la isla grande por un puente.

¿Qué otras poblaciones importantes tiene Puerto Rico?
Ponce, Mayagüez, Arecibo, Aguadilla, San Germán, etc., y en la islita de *Vieques*, *Santa Isabel*, llamada también Vieques.

¿Cuáles son los principales productos de Puerto Rico?
El café, que es muy bueno y la caña de azúcar y el tabaco que produce en abundancia. Abundan finas maderas y frutas riquísimas.

El suelo produce abundantes cosechas de los frutos tropicales y de los de las tierras templadas, de las alturas.


La Antigua Catedral de Santo Domingo.

SANTO DOMINGO Y HAITÍ.

¿Qué es Haití?
El nombre antiguo de la isla que hoy ocupan las repúblicas de Haití y Dominicana, con una superficie de 28,000 millas cuadradas.

¿Qué parte ocupa la república de Haití?
La occidental.

¿Á qué naciones perteneció la isla en varias épocas?
Á Francia y á España.

¿Qué población tiene Haití?
Como 650,000 habitantes.

¿Y la República Dominicana?
Unos 600,000 habitantes.

¿Cuál es la capital de Haití?
Puerto Príncipe, con 40,000 almas.

¿Qué otras poblaciones importantes tiene Santo Domingo además de la capital?
Azua, capital de la provincia del mismo nombre, lo mismo que Seibo, Vega, Santiago, etc. Hay además Puerto Plata, Moca y Macorís.

¿Qué idiomas se hablan en la isla?
En Haití el francés algo adulterado y en Santo Domingo, el español. La parte *haitiana* de la isla está habitada por puros negros, mientras que los *dominicanos*, son los descendientes de los españoles y de la mezcla de los indios primitivos y los negros.

¿Cuál es el estado actual de la isla?
Haití, después de varias revoluciones, está ahora más sosegada y algo adelanta. Santo Domingo, pasó por algunos trastornos; pero en general es país más tranquilo y laborioso.

¿ Y la de la República Dominicana ?

Santo Domingo, con 25,000 habitantes.

¿ Por qué es notable Santo Domingo ?

Por ser la primera ciudad que los españoles fundaron en América.

¿ Á qué gobiernos pertenecen las demás islas ?

La mayoría de ellas á la Gran Bretaña, y las restantes á Francia, Holanda y Dinamarca.

¿ Entre las que pertenecen á la Gran Bretaña, cuál es la más importante ?

Jamaica, al sur de la isla de Cuba, y sudoeste de Haití.

¿ Qué superficie tiene ?

11,516 kilómetros cuadrados ó 3,894 millas cuadradas.

¿ Y cuántos habitantes ?

600,000.

¿ Cuál es la capital de la isla ?

Kingston, con 35,000 almas.

LECCIÓN XXX

MAPA DE LA AMÉRICA DEL SUR.

¿ Qué mar hay al norte de la América del Sur ? C-e.

¿ Qué océano al este ? Á-o.

¿ Cuál al oeste ? P-o.

¿ Qué istmo une la América del Sur á la del Norte ? P-á.

¿ Qué cadena de montañas se extiende á lo largo de la costa occidental de la América del Sur ? A-s.

¿ Cuál es el río más grande de la América del Sur y también del mundo ? A-s.

¿ En qué montañas tiene su nacimiento ? A-s.

¿ En qué dirección corre ? E-e.

¿ En qué océano desemboca ? Á-o.

¿ Qué curso tiene ?

Unos 6,436 kilómetros, ó 4,000 millas.

¿ Qué anchura tiene la boca del Amazonas ?

290 kilómetros ó 180 millas.

¿ Qué río caudaloso hay en la parte setentrional de la América del Sur ? O-o.

¿ En qué dirección corre ? N-ste.

LECCIÓN XXXI

¿ Cuál es el río más grande que se encuentra al sur del Amazonas ? P-a.

¿ Qué ríos se unen para formar el de la Plata ? P-á y U-y.

¿ En qué dirección corren estos ríos ? S-r.

¿ Qué río grande corre al sur del cabo de San Roque ? S-n F-o.

¿ Qué montañas se extienden á lo largo de la costa oriental ? S-a del M-r.

¿ Cuáles son los principales ríos tributarios del Amazonas, por el Sur ?

M-a, T-s, T-ns.

¿ Cuál es la nación más grande de la América del Sur ? B-l.

¿ Cuáles son los tres países que se encuentran en la parte setentrional ?

C-a, V-a y G-s.

¿ Cuáles se encuentran en la parte occidental ? E-r, P-ú, B-a, y C-e.

¿ Cuáles ocupan el sur y el sudeste ?

R-a Á-a, U-y y P-y.

LECCIÓN XXXII

¿ Qué país se encuentra al sur de la República Argentina ? P-a.

¿ Qué república se encuentra toda ella entre los Andes y el Pacífico ? C-e.

¿ Qué puerto de mar notable hay en Chile ? V-o.

¿ En qué océano desembocan todos los grandes ríos de la Amériea del Sur ?

Á-o.

¿ Qué isla grande hay al sur de Patagonia ? T-a del F-o.

¿ Qué estrecho la separa del continente ? M-s.

¿ Qué islas hay al norte de la América del Sur ? A-s.

¿ Qué isla hay en la boca del Amazonas ? J-s.

¿ Qué islas hay al este de Patagonia ? F-d.

¿ Qué islas hay al oeste de Chile ? J-n F-z.

MAPA DE LA AMÉRICA DEL SUR

¿ Cuál al oeste de Patagonia ? C–é.
¿ Qué golfo hay al norte del istmo de Panamá ? D–n.

LECCIÓN XXXIII

¿ Cuál es la capital del Brasil ? R–o J–o.
¿ Qué cabo hay en la extremidad oriental del Brasil ? S–n R–e.
¿ Cuál es el cabo que queda más al sur de la América Meridional ? H–s.
¿ Cuál es el más occidental ? B–o.
¿ Qué volcán notable hay en el Ecuador ? C–o.
¿ Qué nevado, el más alto de América, hay en Bolivia ? S–a ó I–u (25,250 pies.)
¿ En qué país queda el Aconcagua ? C–e.
¿ Qué ríos hay al sur de la República Argentina ? C–o y N–o.
¿ Qué ciudad se encuentra en la embocadura del río de la Plata ? M–o.
¿ Qué gran lago hay entre Perú y Bolivia ? T–a.
¿ Qué cabo hay al N. de la República de Colombia ? G–s.
¿ Qué ciudad se encuentra cerca de la embocadura del Amazonas ? P–á.
¿ Qué ciudad queda al S. del cabo de San Roque ? P–o.

LECCIÓN XXXIV

MAPAS DE LOS PAÍSES DE LA AMÉRICA DEL SUR.

¿ Cuáles son los nombres de los países de la América del Sur ?
C–a, V–a, G–s, E–r, P–ú, B–a, C–e, R–a A–a, P–y, U–y y B–l.

REPÚBLICA DE COLOMBIA.

¿ Qué mar hay al N. de Colombia ? C–e.
¿ Cuáles son los dos países que quedan al E. ? V–a y B–l.
¿ Qué país queda al S. ? E–r.
¿ Qué océano queda al O. ? P–o.
¿ Qué cabo al N. G–s.
¿ Qué río caudaloso corre de S. á N., á desembocar en el mar Caribe ó de las Antillas ? M–a.
¿ Entre qué ciudades queda la boca del Magdalena ? C–a y S–a.
¿ Qué río hay en la parte del S. que linda con el Ecuador ? C–á.
¿ Qué río corre hacia el N. E. á desembocar en el Orinoco ? M-a.
¿ Cuál es la capital de Colombia ? B-á.
¿ Á qué elevación está Bogotá sobre el nivel del mar ? A 8,670 pies.
¿ Qué istmo une á Colombia á la América Central ? P–á.
¿ Qué ciudad hay en el istmo, sobre el mar Caribe ? C–n ó A–l.
¿ Qué ciudad hay hacia el S., en el mismo istmo, sobre el Pacífico ? P-á.
¿ Qué bahía ó golfo hay al S. del istmo ? P–á.
¿ Qué bahía hay en la costa occidental ? B–a.
¿ Qué cordillera de montañas hay sobre la costa occidental ? A-s.
¿ Qué ciudad en los Andes del S. O. ? P–n.

LECCIÓN XXXV

VENEZUELA.

¿ Qué mar y qué océano quedan al N. de Venezuela ? C–e y A–o.
¿ Qué país queda al E. ? G-s.
¿ Cuál al S. ? B–l.
¿ Cuál al O. ? C–a.
¿ Cuál es la capital ? C–s.
¿ Á qué distancia de la costa queda Caracas ? A 11 kilómetros ó 7 millas.
¿ Cuál es el puerto de mar más inmediato á Caracas ? La G–a.
¿ Qué otras dos ciudades de importancia hay sobre la costa ? C–á y P–o C–o.
¿ Qué gran río corre hacia el N. E, á desembocar en el Atlántico ? O–o.
¿ Qué gran lago hay hacia el N. O. ? M–o.
¿ Qué ciudad hay en la orilla occidental de este lago ? M–o.
¿ Qué ciudad hay al S. O. de Caracas ? V–a.
¿ Qué ciudad principal hay al S. del lago de Maracaibo ? M–a.
¿ Qué sierra se encuentra hacia el S. ? P–a.
¿ Qué islas principales hay al N. de Venezuela ? C–o, T–o, M–a, G–a y T–d.
¿ Qué golfo al N. O. M–o.

MAPA DE LOS PAÍSES DE LA AMÉRICA DEL SUR

LECCIÓN XXXVI

GUAYANAS.

¿ Qué océano hay al N. de las Guayanas? A–o.
¿ Qué país queda al S.? B–l.
¿ Cual al O.? V–a
¿ Cuáles son los nombres de las tres divisiones que constituyen las Guayanas? I–a, H–a y F–a.
¿ Cuál es la capital de la Guayana Inglesa? G–n.
¿ Cuál la de la Guayana Holandesa? P–o.
¿ Cuál la de la Guayana Francesa? C–a.
¿ Cuál de las Guayanas queda más al oeste? I–a.
¿ Cómo se halla situada la Guayana Holandesa respecto de la Francesa? Al O–e.

LECCIÓN XXXVII

ECUADOR.

¿ Qué país queda al N. del Ecuador? C–a.
¿ Qué país queda al E.? B–l.
¿ Cuál al S.? P–ú.
¿ Qué océano al O.? P–o.
¿ Qué río hay al N.? C–á.
¿ Qué río corre al S. del Caquetá? P–o.
¿ Dónde desembocan estos ríos? A–s.
¿Qué río corre al S. del Putumayo? N–o.
¿ Cuál es la capital del Ecuador? Q–o.
¿ Sobre qué cadena de montañas está Quito? A–s.
¿ A qué elevación sobre el nivel del mar está Quito? A 10,000 pies.
¿ Qué ciudad hay al S. de Quito? R–a.
¿ Qué ciudad hay en el golfo de Guayaquil? G–l.
¿ Qué ciudad hay al S. del Ecuador? J–n.
¿ Cuál al N. de Jaén? C–a.
¿ Qué golfo hay en la costa occidental? G–l.
¿ Qué volcanes principales se encuentran en el interior del país á corta distancia de Quito? P–a, A–a y C–i.

LECCIÓN XXXVIII

PERÚ

¿ Qué país queda al N. del Perú? E–r.
¿ Qué países quedan al E.? B–l y B–a.
¿ Qué océano queda al O.? P–o.
¿ Qué montañas sobre la costa occidental? A–s.
¿ Qué río corre de S. á N. á desembocar en el Marañón? U–i.
¿ Cuál es la capital del Perú? L–a, á 7 millas del Pacífico.
¿ Cuál es el puerto inmediato á Lima? C–o.
¿ Qué ciudades y villas principales hay sobre la costa, al N. del Callao? T–o, L–e y P–a.
¿ Qué pueblos y ciudades hay en la costa, ó inmediatas á esta, al S. del Callao? P–o, I–a, y A–a.
¿ Qué ciudades y villas hay en el interior al N. de Lima? C–a, H–o, H–z y P–o.
¿ Qué ciudades hay al S. E. de Lima? H–a, A–o, C–o, A–a y P–o.
¿ Cuál al N. O. del lago Titicaca? C–o.
¿ Qué lago hay al N. E. de Lima? Reyes, de 90 millas de circunferencia.
¿ Qué lago hay entre el Perú y Bolivia? T–a.
¿ Qué ciudad peruana hay en las márgenes del lago Titicaca? P–o.
¿ Qué desierto se encuentra al S. del Perú? A–a.
¿ Qué cabo hay en la costa, hacia el N. O.? B–o.
¿ Cuál es el principal puerto de la república peruana? C–o.

LECCIÓN XXXIX

BOLIVIA

¿ Qué país queda al N. y al E. de Bolivia? B–l.
¿ Cuál al S.? R–a A–a.
¿ Qué países al O. y S. O.? P–ú y C–e.
¿ Qué ríos riegan su territorio por el N.? B–í y M–é.
¿ Qué río hay al N. E.? G–é.
¿ Qué río hay al S.? P–o.
¿ Qué cordillera hay al O. de esta república? A–s.

¿ Qué cima la más elevada de los Andes, hay en Bolivia? S–a (á 25,250 pies).
¿ Qué desierto hay al S. O.? A–a.
¿ Cuál es la capital de Bolivia? S–e.
¿ Qué villa queda al N. O. de Sucre? O–o.
¿ Cuál al N. E. de Oruro? C–a.
¿ Qué ciudad queda al S. O. de Sucre? P–í.
¿ Qué villa hacia las fuentes del río Bermejo? T–a.
¿ Y cuál cerca de la costa S. E. del lago Titicaca? La P–z.
¿ Qué lago separa á Bolivia del Perú? T–a.
¿ Cuál es la longitud del lago Titicaca de N. O. á S. E.? 160 kilómetros ó 100 millas.
¿ Y su anchura de E. á O.? 56 kilómetros ó 35 millas.
¿ Qué nevados hay en la república de Bolivia? S–a, I–i y P–í.

LECCIÓN XL

CHILE

¿ Qué desierto hay al N. en Chile? A–a.
¿ Qué país queda al E.? R–a A–a.
¿ Cuál es su límite por el S.? P–o.
¿ Qué océano queda al O.? P–o.
¿ Qué cordillera forma el límite oriental? A–s.
¿Cuál es la capital de Chile? S–o, á 96 kilómetros, ó 60 millas de la costa.
¿ Cuál es su puerto más inmediato? V–o.
¿ Qué ciudad hay en la costa, al N. de Valparaíso? C–o.
¿ Qué otra ciudad más al N. en el interior? C–ó.
¿ Qué otras dos ciudades principales hay al S.? C–n y V–a.
¿ Qué islas hay en el Pacífico á 400 millas de Chile? J–n F–z.
¿ Qué isla hay cerca de la costa al S. de Valdivia? Ch–é.
¿ Qué golfo entre Chiloé y el continente? C–o.
¿ Qué población hay en Chiloé? A–d.
¿ Qué puerto al N. E. de Ancud? M–t.

LECCIÓN XLI

PREGUNTAS QUE SIRVEN DE REPASO.

CIUDADES

(*¿ Dónde quedan y cómo están situadas?*)

Colombia.

Bogotá? Panamá?
Cartagena? Popayán?
Colón ó Aspinwall?

Venezuela.

Caracas? La Guayra?
Coro? Cumaná?
Maracaibo? Trujillo?
Valencia? Mérida?

Guayanas.

Georgetown? N. Amsterdam?
Paramaribo? Cayena?

Ecuador.

Quito? Guayaquil?
Riobamba? Cuenca?

Perú.

Lima? Callao?
Trujillo? Pisco?
Arequipa? Arica?
Payta? Cajamarca?
Huánuco? Cerro Pasco?
Ayacucho? Cuzco?
Junín? Puno?
Huancavélica?

Bolivia.

Sucre? Oruro?
Potosí? Tarija?
La Paz? Cochabamba?

Chile.

Santiago? Valparaíso?
Coquimbo? Valdivia?
Copiapó. Concepción?

LECCIÓN XLII

RÍOS

(*¿ En qué países se encuentran, qué dirección llevan, y dónde desembocan ?*)

Magdalena ? Caquetá ?
Napo ? Mamoré ?
Orinoco ? Marañón ?
Putumayo ? Bení ?
Ucayali ? Madera ?
Meta ? Pilcomayo ?

MONTAÑAS.

Andes ? Sierra Parima ?
Sierra del Mar ?

NEVADOS.

Cotopaxi ? Chimborazo ?
Sorata ? Illimani ?

LAGOS.

Maracaibo ? Titicaca ?
Reyes ?

LECCIÓN XLIII

REPÚBLICA DE COLOMBIA.

¿ Cuáles son los límites de la República de Colombia ?

(Véase el mapa.)

¿ Quién fué el descubridor de este país, llamado en otro tiempo Nueva Granada ?

Alonso de Ojeda ; pero no hizo establecimiento alguno en él.

¿ Cuál fué el primer europeo que desembarcó en el territorio de la República de Colombia ?

El español Rodrigo de Bastidas, que con un armamento partió de Sevilla, y desembarcó, en 29 de Julio de 1525, en un puerto á que dió el nombre de Santa Marta.

¿ Hizo Bastidas alguna conquista luégo que desembarcó en Santa Marta ?

Apenas había conseguido coger un rico botín de oro en sus primeros movimientos de conquista, cuando sus subalternos, queriendo disponer á su antojo del caudal, lo asesinaron.

¿ Quién fué al fin el conquistador de aquella parte de la América ?

Gonzalo Jiménez de Quesada, hombre de ánimo, que con una expedición bastante numerosa desembarcó en el mismo puerto.

¿ Qué hizo luégo que desembarcó allí ?

Siguió para Bogotá, donde residía la corte del zipa ó rey de aquellas comarcas.

¿ Después de la conquista, cómo se gobernó el país ?

Como colonia española.

¿ Hasta qué tiempo ?

Hasta el año de 1810, en que comenzó la revolución que efectuó la independencia de Colombia, en 1821.

¿ Qué batallas decidieron el triunfo de las armas independientes ?

La batalla de Boyacá, dada en 1819, y la de Carabobo, en 1821. En ambas fué completamente derrotado el ejército español, y se vió obligado á evacuar los territorios colombiano y venezolano.

¿ Cómo quedó constituido el país después de la independencia ?

En 9 de Mayo de 1821 se reunió un congreso general en el Rosario de Cúcuta, que formó una constitución é incorporó en una república, bajo el nombre de Colombia, á



Simón Bolívar.

Nueva Granada, Venezuela y el país que hoy se llama Ecuador.

¿ Á quién nombró el congreso Presidente de la República ?

Al Libertador Simón Bolívar, quien por su constancia, talentos y valor, hizo triunfar la causa de la independencia.

¿ Cómo fué gobernado después el país ?

En 1831 poco después de que Bolívar dejara el mando supremo, formó con el nombre de Nueva Granada, una de las tres repúblicas independientes en que se dividió la primitiva república de Colombia. Organizada, en 1858, en 8 estados soberanos se llamó Confederación Granadina, cuyo nombre cambió más tarde por el de Estados Unidos de Colombia, y últimamente, en 1886 al reconstituirse bajo un gobierno central, por el de República de Colombia que lleva en la actualidad.



Bogotá.

LECCIÓN XLIV

¿Cuál es la extensión de la República de Colombia?

Su superficie es de 500,000 millas cuadradas (ó 1.294,500 kilómetros cuadrados), según datos oficiales publicados en 1874.

¿Qué población tiene?

4,000,000 habitantes.

¿Cuál es su capital?

Bogotá, residencia de los altos poderes, ciudad de 110,000 habitantes, á cerca de 2,643 metros, ó 8,670 pies sobre el nivel del mar, con buen caserío, una universidad, bibliotecas, buenos colegios públicos y privados, escuelas para la enseñanza primaria, varios establecimientos de beneficencia, un museo, un observatorio astronómico, ricas iglesias católicas, buenos paseos y hermosos edificios.

¿Qué gobierno es el de este país?

Republicano unitario.

¿Cómo está dividida la Republica?

Los antiguos 9 Estados Federales son ahora otros tantos departamentos y pueden clasificarse así: 2 en el Atlántico, Bolívar y Magdalena; dos con costas en ambos océanos, Panamá y Cauca y cinco interiores, Tolima, Antioquia, Cundinamarca, Bogotá y Santander.

Para el servicio administrativo, los departamentos se dividen en Provincias y éstas en 991 distritos municipales.

LECCIÓN XLV

¿Cómo están administrados los departamentos?

En cada departamento hay un Gobernador y una Corporación administrativa llamada Asamblea Departamental.

En los distritos hay un consejo municipal.

¿Cuál es la religión de los colombianos?

La religión católica, es la reconocida por la nación colombiana; pero se tolera el ejercicio de todos los cultos que no sean contrarios á la moral cristiana y á las leyes de la República.

Refiéranse algunas de las medidas de progreso que se han consagrado en las instituciones colombianas.

Todos los monopolios se han abolido; la prensa ha quedado libre en tiempo de paz; la esclavitud totalmente abolida desde hace muchos años; y la inviolabilidad de la vida humana es un derecho garantizado por la constitución del país.

En punto á vías de comunicación ¿qué obras notables se han emprendido?

Hay cuatro ferrocarriles: el de Panamá; el de Bolívar que pone en comunicación á Baranquilla con Sabanilla y los de la Dorada y el Cauca; los cuales, junto con los caminos carreteros, y el impulso que se ha dado á la navegación del río Magdalena, arteria principal del comercio de la República, harán de aquel país uno de los puntos principales de inmigración, á favor de la cual se han expedido también leyes muy sabias. El telégrafo eléctrico une la capital con alguna de las principales ciudades de la República.

¿Cuál es el aspecto del país?

Muy variado; siendo hacia el centro y sudoeste sumamente elevado y montañoso.

¿Cuál es su clima?

Igualmente variado; pero constante en los respectivos lugares. En los valles, es por lo común caliente, y más ó menos frío en las cimas de las montañas. El clima es sano en lo general; pero hay localidades malsanas, principalmente en la costa.

LECCIÓN XLVIII

¿Cuáles son sus producciones vegetales?

Estas son tan variadas como el clima. Abundan el trigo, maíz, arroz, plátanos, yucas, añil, quina, algodón, cera de laurel, tagua ó marfil vegetal, infinidad de plantas tintóreas y medicinales, bálsamos diversos, caucho, cacao, café, tabaco, vainilla, una infinita variedad de frutas; caoba, diomate, é igual variedad de maderas preciosas y de tinte.

¿Cuáles son sus principales producciones minerales?

Oro, platina, plata, cobre, hierro, plomo, etc. En Muzo, Estado de Boyacá, se encuentran las únicas minas de esmeraldas finas que existen en el mundo. Hay también otras piedras preciosas.

LECCIÓN XLIX

¿Cuáles son los principales puertos de mar de la República de Colombia?



Puerto de Cartagena.

Cartagena, Santa Marta, Riohacha, Sabanilla y Colón ó Aspinwall, en el Atlántico. Panamá, Buenaventura y Tumaco en el Pacífico.

¿Cuáles son sus principales ríos?

El más importante es el Magdalena, de que son afluentes principales el Cauca y el Sogamozo.

¿En qué dirección corre el Magdalena y dónde desemboca?

Corre en la dirección de N. á S., y desemboca en el Atlántico, entre Cartagena y Santa Marta.

¿Cuántas millas de este río son navegables?

Cerca de 800 millas.

¿Qué otros ríos notables hay?

El San Juan y el Atrato, que han llamado por largo tiempo la atención, por las facilidades que prestan

para poner en comunicación los dos océanos Pacífico y Atlántico.

¿Dónde desagua el San Juan?
En el Pacífico.

¿Dónde desemboca el Atrato?
En el Atlántico, formando con el golfo de Panamá el arranque del istmo de Panamá.

¿Cuáles son las principales ciudades de la república?
Bogotá, Tunja, Socorro, Pamplona, Colón, Cartagena, Panamá, Santa Marta, Barranquilla y Popayán.

¿Cuáles son los lugares donde más abunda el oro?
En varios se encuentra este mineral, pero es abundantísimo sobre todo en el Chocó, Cauca y en Antioquía. Se saca de sus minas cuatro ó cinco millones de pesos anuales.



Panamá.

¿Qué nevados principales se encuentran en aquel país?
Cumbal, el volcán de Pasto, el páramo de Sotará, el de Puracé, el Tolima y el páramo de Ruiz.

¿Qué hay de notable en el Puracé?
Que en la cima de la altura en que arde el volcán hay dos lagunas, una á cerca de 16,000 pies sobre el nivel del mar, y la otra á 17,000.

LECCIÓN L

ESTADOS UNIDOS DE VENEZUELA

Diga Vd. los límites de Venezuela.
(Véase el mapa.)

¿Cuándo fué descubierta Venezuela?
Cristóbal Colón la descubrió en su tercer viaje, en 1498.

¿Cuál fué el primer pueblo fundado en el país por Alfinger?
Coro, que se fundó en 1534.

¿Cuál es la ciudad más antigua de la costa firme y una de las más antiguas del nuevo mundo?
Cumaná, fundada en 1521, por Jacomé Castellón.

¿Á qué gobierno perteneció Venezuela desde el tiempo de la conquista hasta 1821?
Á España.

¿Desde qué época comenzaron á hacer esfuerzos los venezolanos por independizarse de la madre patria?
Desde el año de 1806.

¿Cuándo empezó verdaderamente la revolución?

En 1810 que proclamaron su independencia varias provincias, que en 1811 formaron una república federativa.

¿Cuánto tiempo duró esta república?
Solo algunos meses; pues en 1812 volvieron los españoles á destruir el nuevo orden establecido.

¿Quién fué al fin el libertador de aquel país?
Simón Bolívar, que con comisión y recursos dados por el congreso de la Nueva Granada, sostuvo la guerra contra los españoles, hasta que alcanzó los triunfos de Boyacá y Carabobo, que dejaron definitivamente libres los dos países.



Animales de la América del Sur.

LECCIÓN LI

¿Cómo fué gobernado entonces el país?
En 1821 se incorporaron en una república, bajo el nombre de Colombia, Venezuela y los países que hoy se llaman República de Colombia y Ecuador, respectivamente. En 1831, Venezuela se organizó en República independiente, y actualmente se llama Estados Unidos de Venezuela.

¿Cuál es la extensión de Venezuela?
Como 1.105,503 kilómetros cuadrados, ó 427,000 millas cuadradas.

¿Cuál es su población?
Unos 2.500,000 de habitantes.

¿Cuál es su capital?
Caracas, con 75,000 habitantes, una universidad, un seminario, una academia militar, academias de pintura y de música, varias escuelas públicas y colegios particulares, sociedades patrióticas de agricultura y de emigración, un teatro y otros establecimientos útiles.

¿Qué acontecimiento notable ocurrió en Caracas en 1812?
Un terremoto que arruinó casi completamente la ciudad, y bajo cuyas ruinas perecieron más de 12,000 habitantes.

¿Cuál es el gobierno actual del país?
Republicano federal.

¿Cuál es la religión?
En Venezuela hay tolerancia de cultos; pero casi toda la población es católica.

¿Cuál es el aspecto del país?
Montañoso en las regiones de la