¿ Qué se puede decir de la ciudad de Corrientes ?

Que esta ciudad, situada cerca de la confluencia de los ríos Paraguay y Paraná, es de grande importancia para la navegación de estos ríos y sus afluentes, y que tiene un magnífico puerto para buques de mucho calado.

¿ Qué gobernación se encuentra al N. E. de la provincia de Corrientes?

La de Misiones, cuya capital es Posadas.

¿ En qué estado se hallaba ese territorio antes de 1776 ?

Los misioneros Jesuítas, quienes se habían establecido allí, y dedicado con mucho celo á la conversión de los naturales, logrando sus propósitos, llegaron á reunirlos en treinta pueblos con 130,000 habitantes.

¿ Qué sucedió á los Jesuítas en aquel año ?

Fueron expulsados de las Misiones.

LECCIÓN LXXVI

¿ Cuál es el aspecto de las gobernaciones del Chaco y Formosa ?

Estas gobernaciones ocupan una extensa llanura, cubierta de bosques, en que abundan las maderas de construcción. El terreno es sumamente fértil y se han establecido allí muchas colonias agrícolas.

¿ Cuáles son el clima y aspecto de la Pampa ?

La Pampa es una gran llanura, cubierta en parte de plantas gramíneas y especialmente de la yerba que lleva su nombre. Está interrumpida por médanos y varias lagunas. Su clima es bastante cálido en verano, y muy frío en invierno.

¿ Cuáles son las producciones de la Pampa ?

Pastos, algarrobas y otras varias maderas. También se encuentra en ella sal en abundancia.



Yerbas de las Pampas.

¿ Qué gobernaciones se han constituido en la Patagonia ?

Las de Río Negro, Chubut, Santa Cruz y Tierra del Fuego.

¿ Cuál es el aspecto general de estas regiones ?

El suelo de estas regiones, que antes formaban el territorio llamado de Patagonia, es mucho más quebrado que el de la Pampa, y está surcado por grandes valles, cuya vigorosa vegetación contrasta en extremo con la desnudez de las eminencias que las rodean.



Gauchos lazando en la Pampa.

¿ Quiénes habitan en estas regiones ?

En las costas hay varias colonias pobladas por europeos ; pero el interior está ocupado por los indios.

Indio patagón.

¿ Cuáles de estos indios son los más notables ?

Los patagones, que se dividen en pampas, descendientes de los antiguos querandíes de familia araucana, pethuenches, huilliches y ranqueles.

¿ Cuál es el gobierno de la República Argentina ?

Republicano Federal.

¿ Y cuál la religión de sus habitantes ?

La católica es la principal, pero se toleran todos los demás cultos.

LECCIÓN LXXVII

REPÚBLICA ORIENTAL DEL URUGUAY

¿Cuál es la República Oriental del Uruguay?

La República Oriental del Uruguay es un Estado independiente, separado de la República Argentina por el Río de la Plata y el Uruguay.

¿Cuáles son sus límites?

Sus límites son: al Norte y Nordeste el Brasil; al Este el Atlántico; al Sud el Atlántico y el Río de la Plata, y al Oeste el Uruguay que, con el Río de la Plata, la separa de la República Argentina.

¿Cuál es su superficie?

Tiene una superficie de 63,324 millas cuadradas, ó sean 163,950 kilómetros cuadrados.

¿Cuál es su población?

La República Oriental del Uruguay tiene 750,000 habitantes.



La Ciudad de Montevideo.

¿Cuál es su capital?

Su capital es San Felipe de Montevideo, llamado generalmente Montevideo, con 180,000 habitantes; un gran puerto en la desembocadura del Río de la Plata; una hermosa Catedral; varias iglesias, conventos y teatros; una universidad y muchas escuelas y colegios de primer orden; una vasta asociación de particulares para la difusión de la enseñanza común; casa de beneficencia, etc.

¿Cómo está dividida?

La República Oriental del Uruguay está dividida en 18 departamentos, que son: Montevideo, Canelones, San José, Florida, Colonia, Soriano, Durazno, Paysandú, Salto, Tacuarembó, Cerro Largo, Minas,

MAPA DE LA REPÚBLICA ORIENTAL DEL URUGUAY.

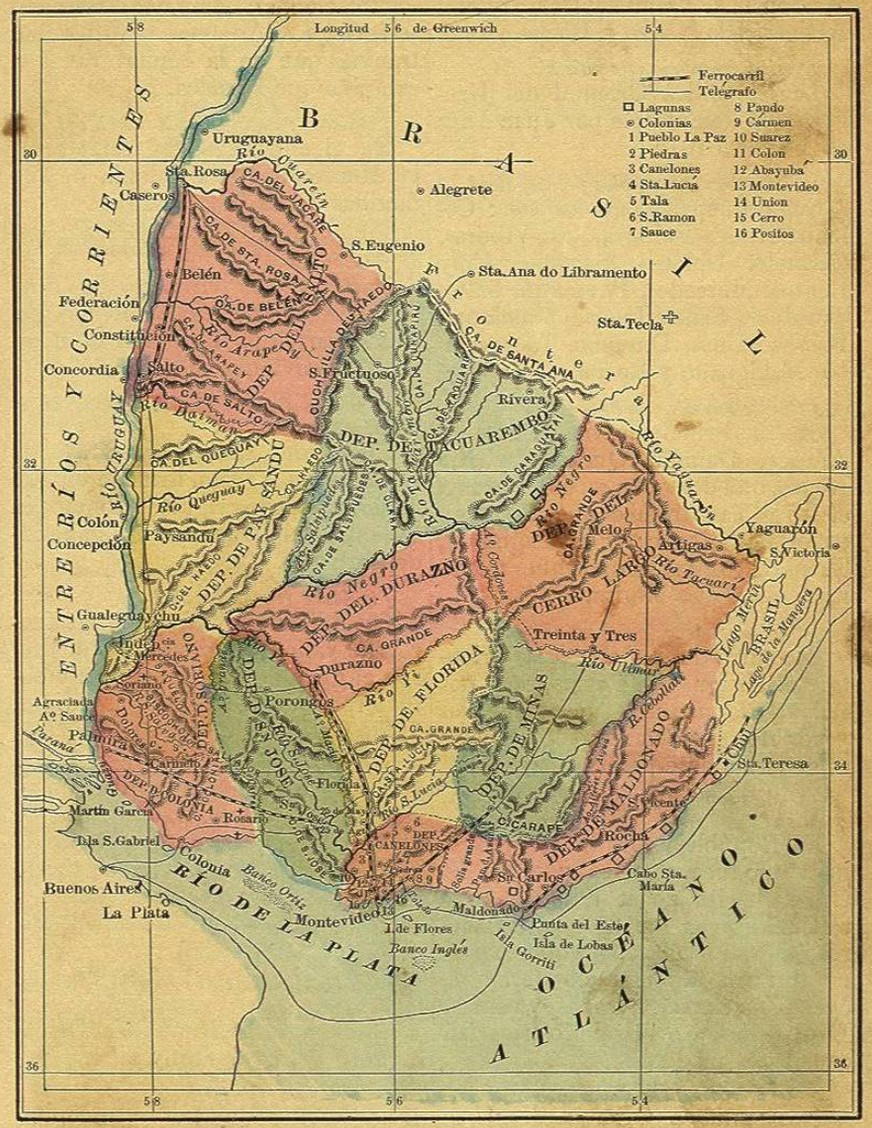

Maldonados, Treinta y tres, Rivera, Artigas, Río Negro y Rocha.

¿ Quién descubrió este país ?

La República Oriental del Uruguay fué descubierta por Juan Díaz de Solís, en 1615.

¿ Cuáles son sus pueblos principales ?

Sus principales pueblos son: Colonia, Nueva Palmira, las Víboras, Carmelo, Dolores, Soriano, Fray Bentos, Mercedes, Paysandú, Salto, San José, Santa Lucía, Canelones, Pando, Minas, Durazno, Tacuarembó, Maldonado y Rocha.

¿ Cuáles son sus ríos ?

Sus ríos principales son; Cuareim, Arapey, Daimán, Queguay y Río Negro, que desaguan en el Uruguay; el Yi y Tacuarembó que desaguan en el Río Negro; y el Yaguarón, Tacuarí, y otros arroyos que terminan en el Lago Merim.

¿ Cuál es el aspecto del país ?

El centro de la República Oriental del Uruguay está atravesado por cadenas de montañas poco elevadas y por ríos. El terreno de la costa es generalmente llano.

¿ Cuáles son los productos de esta República ?

La República Oriental del Uruguay produce cereales y todas las frutas de las zonas templadas; se cría allí mucho ganado y hay saladeros de gran importancia que exportan carne salada, extracto de carne, cueros, astas, sebo, crines y ceniza. Los bosques á orillas de los ríos dan excelentes maderas.

¿ Tiene ferrocarriles ?

La República Oriental del Uruguay tiene ya varios ferrocarriles en explotación, así como una buena red telegráfica. Además hay muchos tranvías que de la capital van á la campiña que la rodea.

¿ Quiénes fundaron á Montevideo ?

En el año 1726 fué establecida en Montevideo una colonia de 120 familias de las islas Canarias.

¿ Hasta cuándo perteneció al vireinato de Buenos Aires ?

Perteneció al vireinato de Buenos Aires hasta 1821, año en que formó parte del Brasil con el nombre de Provincia Cisplatina.

¿ Cuándo fué erigida en Estado independiente ?

En el año 1828, por tratado de fecha 27 de Agosto, firmado en Río Janeiro; quedó erigida la República Oriental del Uruguay en Estado independiente.

¿ Quiénes fueron los 33 ?

Los llamados *Treinta y tres* fueron 33 valientes orientales que dieron el grito de independencia y obtuvieron la victoria de Sarandí, en 12 de Octubre de 1825.

¿ Qué sitio sufrió Montevideo ?

Montevideo tuvo que sufrir un sitio de diez años contra las tropas de Oribe, que quería ser Presidente de la República y segundar al tirano Rosas. La caída de éste dió también fin á las pretensiones de aquel caudillo.

¿ Cuál es el clima de la República Oriental del Uruguay ?

El clima de la República Oriental del Uruguay es muy sano.

¿ Cuál es su religión ?

La Católica Romana, y su capital es el asiento del obispado.

LECCIÓN LXXVIII

REPÚBLICA DEL PARAGUAY

¿ Cuáles son los confines del Paraguay ?

Al Norte el imperio del B–l; al Este y al Sur el río P–á, que lo separan del B–l y de la R–a A–a; y al Oeste el río P–y y el Pilcomayo, que lo separan del mismo país.

¿ Cuál es la capital de la República ?

La A–n, situada en el río P–y.

¿ Cuáles son sus principales poblaciones ?

Itapua, Trinidad, Curupaiti, Nembuco, Villa Rica, Saltado, Curuguatí, Villa Real y Tevego.

¿ Qué superficie tiene el Paraguay ?

237,280 kilómetros cuadrados ó 91,650 millas cuadradas.

¿ Cuál es la población de la República ?

Como de unos 350,000 habitantes.

¿ Qué río hay en el Norte del Paraguay?

El A–a, que lo separa del B–l.

¿ Qué río tiene su origen cerca de Villa Rica, y desagua en el Paraguay ?

El T–i.

¿ Cuál hay entre Paraguay y Corrientes ?

El P–á.

¿ Y entre Paraguay y la Gobernación de Formosa ?

El P–y.

LECCIÓN LXXIX

¿ Qué clima tiene el Paraguay ?

Un clima suave y sano; y su suelo es sumamente fértil.



La Ciudad de Asunción.

¿ Cuál es la población de su capital y cómo está situada ?

La Asunción, en la orilla izquierda del río Paraguay, agua abajo de su confluencia con el Pilcomayo; tiene una población de 30,000 almas.

¿ Cómo se divide el territorio de la República ?

En 20 Departamentos.

¿ Cuál es el aspecto del país ?

Es montañoso al Norte y al Este; pero llano y á veces pantanoso en el Sur.

¿ Cuáles son los principales ríos de la República ?

(Véase el mapa.)

¿ Tiene ferrocarriles ?

Tiene una línea, que pone en comunicación á la capital con Villarica.

¿ Cuáles son los productos del país ?

Cultívanse yerba mate en gran escala, algodón, caña de azúcar, arroz y cáñamo; y tiene preciosas maderas y plantas medicinales; y se extraen tintes, resinas y cera.

Yerba Mate ó del Paraguay.

¿ Qué religión es la del país ?

La católica; pero se toleran los demás cultos.

¿ En qué estado se halla la educación ?

Empieza á fomentarse eficazmente, multiplicando las escuelas y planteando un nuevo sistema de enseñanza.

LECCIÓN LXXX

BRASIL

¿ Qué es el Brasil ?

El único imperio que existía en América hasta 1889.

¿ Cuáles son sus límites ?

(Véase el mapa.)

¿ Quién fué el descubridor del Brasil ?

Pedro Álvarez Cabral, quien tomó posesión del país, en 1500, á nombre del rey Manuel, de Portugal.

¿ A qué gobierno perteneció el Brasil después ?

Á España, á consecuencia de haberse incorporado á aquel reino, Portugal con sus posesiones.

¿ Cuándo se apoderaron los holandeses de casi todo el Brasil ?

Durante el reinado de Felipe IV; pero luégo que Portugal recobró su independencia, volvió á apoderarse de la colonia.

MAPA DEL BRASIL.

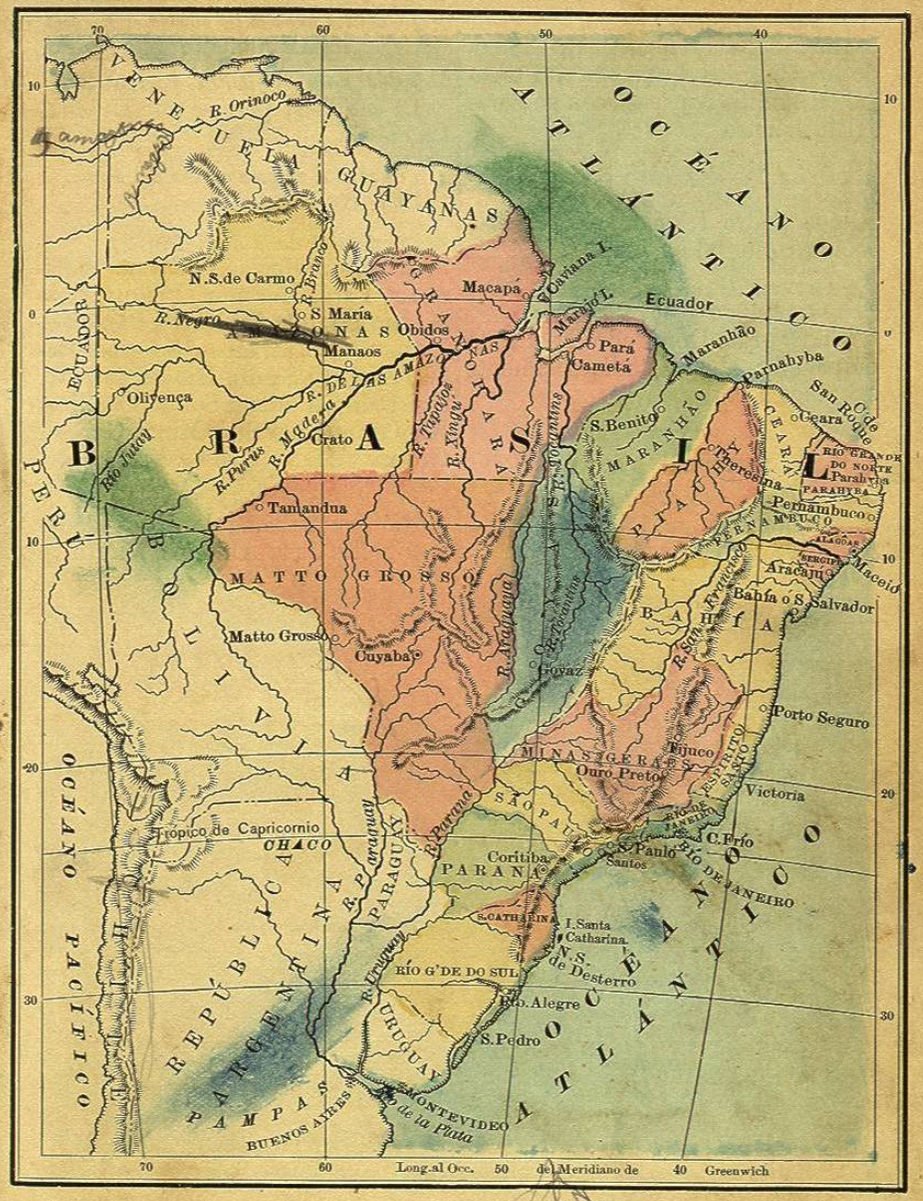

¿ Cuándo dejó de ser colonia ?
En 1807, año en el cual, habiendo invadido los franceses á Portugal, la familia real pasó con su corte á Río Janeiro.

¿ Quién fué el primer emperador del Brasil ?
Don Pedro I, quien se hizo proclamar como tal en 1822.

¿ En favor de quién abdicó Don Pedro I en 1831 ?
En favor de Don Pedro II, último emperador, el cual tenía solamente seis años á la sazón.

LECCIÓN LXXXI

¿ Cuál es la extensión del Brasil ?
8,347,964 kilómetros cuadrados, ó 3,224,398 millas cuadradas.

¿ Cuántos habitantes cuenta el Brasil ?
Cerca de 12,000,000.

¿ Cuál es la religión del país ?
La católica; pero se toleran todos los cultos.

¿ Cuál es el idioma común del Brasil ?
El portugués.

¿ Cómo está dividido el Brasil ?
En 20 provincias, que son: Amazonas, Pará, Marañón, Piahuy, Ceará, Río Grande del Norte, Parahiba, Pernambuco, Alagoas, Sergipe, Bahía, Espíritu Santo, Río de Janeiro, San Pablo, Paraná, Santa Catalina, Río Grande del Sur, Minas Geraes, Goyaz, y Matto Grosso.

¿ Cuál es la capital ?
Río Janeiro, una de las ciudades más bellas de la América, puerto de



Río Janeiro.

mar, con bellos edificios, varios colegios, bibliotecas y gabinetes de lectura; observatorio, jardín botánico, ricos templos, hospitales, varios teatros, y paseos deliciosos; y 380,000 habitantes.

¿ Por qué es notable Río Janeiro ?
Por ser, después de Buenos Aires, la ciudad más mercantil y populosa de la América del Sur.

¿ Qué otras ciudades de importancia hay en el Brasil ?
San Salvador ó Bahía, ciudad bien fortificada, capital de la provincia de Bahía, y antiguamente del país, con un hermosísimo puerto, buenos edificios, varios establecimientos científicos y literarios, un teatro, un hermoso paseo y 150,000 habitantes,—Recife ó Pernambuco, San Pablo, Pará, Maranhão, Santos y Porto Alegre, los que, con la capital, son los principales puertos del país.

¿ Hay algunos volcanes en el país ?
No se conoce ninguno, y hay muy pocas cimas elevadas.

LECCIÓN LXXXII

¿ Cuál es el aspecto del país y cuál su clima ?
Recorren la parte del este en casi toda su extensión de N. á S. algunas cadenas de montañas de poca elevación, siendo las más notables las sierras del Mar y del Espinazo, que dan al país, en su mayor parte cubierto de bosques, mucha variedad. Su suelo es muy fértil y rico en producciones minerales, y su clima muy variado y sano.

¿ Cuáles son las principales fuentes de riquezas del Brasil ?
En un país como aquel, donde se hallan casi todas las producciones de la tierra, hay muchas fuentes de industria y de comercio; pero en lo que más se emplean los habitantes, es en el cultivo del algodón, azúcar, café y tabaco, y en la explotación de sus muy ricas minas de oro, de diamantes, y de hulla ó carbón de piedra.

¿ Cuáles son los principales ríos del Brasil ?
El de las Amazonas, el más caudaloso del mundo, con sus inmensos afluentes (*véase el mapa*): el San Francisco, el Maranhão, el Paranahyba, el Paraguay, el Paraná y el Uruguay.

¿ Qué isla grande se encuentra en la desembocadura del Amazonas ?
La de Marajós ó Joannes.

¿ Qué lagos hay en el Brasil ?
Los más notables son el de los Patos y el de Merím.

¿ Qué gobierno tiene el Brasil ?
Es una República Federal desde el año de 1889.

LECCIÓN LXXXIII

GUAYANAS

¿ Á qué se da el nombre de Guayanas ?
Á una porción de territorio de la América del Sur comprendido entre el océano Atlántico, el Brasil y Venezuela.

¿ Quién descubrió aquel país ?
Cristóbal Colón en 1498; Amérigo Vespucci y luégo Vicente Pinzón exploraron sus costas dos ó tres

años después; y la primeria colonia se estableció allí, por el francés Laravardière en 1604.

¿Á qué naciones pertenece aquel territorio?

Está dividido entre la Gran Bretaña, Holanda y Francia.

¿Cómo están situados los territorios poseídos por estas naciones?

Hállase el de la Guayana Francesa al este; el de la Inglesa al oeste, y el de la Holandesa entre los anteriores.

¿Qué clima es el de las Guayanas?

En el interior es templado y sano; pero hacia las costas es cálido y poco saludable.

¿Qué producen las Guayanas?

Arroz, trigo, maíz, algodón, tabaco, café, azúcar, cacao, clavo, plantas medicinales, tintes, maderas preciosas y otras producciones de los climas cálidos y templados.

¿Cuál es la población de la Guayana Francesa?

30,000 habitantes; su capital es Cayena, con 9,000 almas.

¿Cuál es la población de la Guayana Inglesa?

263,000 almas; su cap. es Georgetown, con 45,000.

¿Cuál es la población de la Guayana Holandesa?

110,000 habitantes; y su capital, Paramaribo, tiene 20,000.

LECCIÓN LXXXIV

PREGUNTAS SOBRE EL MAPA DE LA AMÉRICA DEL NORTE

(Véase el mapa.)

¿Qué océano hay al N. de la América del Norte? A–o.

¿Cuál al E.? A–o.

¿Qué golfo hay al S.? M–o.

¿Qué océano hay al O.? P–o.

¿Qué país queda al N. O. de la América del Norte? A–a.

¿Qué país hay en el N.? D–o del C–á.

¿Cuál al N. E.? G–a.

¿Qué país se encuentra al S. del Dominio del Canadá? E–s U–s.

¿Entre qué océanos están situados los Estados Unidos? A–o y P–o.

¿Qué país hay al S. de los Estados Unidos? M–o.

¿Cuál al S. E. de Méjico? A–a C–l.

¿Qué istmo une á la América Central con la América del Sur? P–á.

¿Qué bahía hay entre el Dominio del Canadá y Groenlandia? B–n.

LECCIÓN LXXXV

¿Qué gran bahía hay en el Dominio del Canadá? H–n.

¿Qué gran golfo se encuentra al S. de los Estados Unidos? M–o.

¿Cuál al O. de Méjico? C–a.

¿Qué estrecho queda á la entrada de la bahía de Bafin? D–s.

¿Qué estrecho hay entre Asia y la América del Norte? B–g.

¿Qué gran río corre á desembocar en el golfo de Méjico? M–í.

¿Qué gran afluente tiene el Misisipí por el E.? O–o.

¿Cuáles por el O.? M–i y A–s.

¿Qué río caudaloso hay en Oregón? C–a.

¿Dónde desemboca? P–o.

¿Qué río desemboca en la bahía de Hudson? N–n.

¿Á qué lago sirve el río Nelson de desaguadero? W–g.

¿Cuáles son los 5 grandes lagos que se encuentran al N. de los Estados Unidos? S–r, H–n, M–n, E–e y O–o.

LECCIÓN LXXXVI

¿Qué lagos de consideración hay al N. O. de la bahía de Hudson? E–o y O–o.

¿Cuál es el más grande de todos los lagos de la América del Norte? S–r.

MAPA DE LA AMÉRICA DEL NORTE

¿ Qué cabo hay al S. de Groenlandia ? F-ll.

¿ Qué cabo se encuentra en la extremidad meridional de California ? S-n-L-s.

¿ Qué isla hay al E. de Groenlandia ? I-a.

¿ Qué islas hay al E. del Dominio del Canadá ? T-a N-a.

¿ Qué islas se encuentran al S. E. de los Estados Unidos ? B-s y A-s.

¿ De estas islas, cuáles son las cuatro más grandes ? C-a, S-o D-o, J-a y P-o R-o.

¿ Qué islas hay en el Atlántico al E. de los Estados Unidos ? B-s.

¿ Qué isla se encuentra al N. O. de los Estados Unidos ? V-r.

¿ Qué cordillera de montañas se encuentra en la parte occidental de la América del Norte ? M-s R-s.

LECCIÓN LXXXVII

¿ Qué nombre toma esta misma cadena en Méjico ? S-a M-e.

¿ Qué cordillera hay en la parte oriental de los Estados Unidos ? M-s A-i.

¿ Qué monte elevado hay en Alaska ? S-n-E-s.

¿ Cuál es la metrópolis de los Estados Unidos y ciudad más grande de América ? N-a Y-k.

¿ Cuál es la capital de los Estados Unidos ? W-n.

¿ Qué ciudad de consideración hay cerca de las bocas del Misisipí ? N-a O-s.

¿ Qué gran isla se encuentra á la entrada del golfo de Méjico ? C-a.

¿ Cuál es la capital de Cuba ? H-a.

¿ Qué península hay al N. de Cuba ? F-a.

¿ Cuál al S. O. de la misma isla ? Y-n.

¿ Cuál al O. de Méjico ? B-a C-a.

¿ Qué bahía hay al N. de la América Central ? H-s.

¿ Cuál al O. de Yucatán ? C-e.

¿ Qué isla hay al S. O. de Cuba ? J-a.

LECCIÓN LXXXVIII

AMÉRICA DEL NORTE

¿ Cuál es la extensión de la América del Norte ?

(Véase la página 12.)

¿ Cuál es su población ?

(Véase la página 12.)

¿ Qué razas componen esta población ?

La blanca, la negra y la india.

¿ De dónde son originarios los blancos que hay en ella ?

De Europa ?

¿ Y los negros ?

Fueron traídos del África, y vendidos como esclavos ?

¿ Qué hay que decir sobre los indios ?

Que eran los habitantes de América cuando esta fué descubierta ?

¿ Quién descubrió la América ?

Cristóbal Colón, en 1492.

¿ Quién costeó la expedición de Colón ?

Don Fernando y Doña Isabel, reyes de España.

¿ Á dónde creía Colón dirigirse ?

Á la India en el Asia.

¿ Qué dirección seguían los europeos para ir á la India ?

La dirección E.

¿ Qué rumbo siguió Colón ?

El del O.

¿ Por qué se dirigió hacia el O. para ir á la India ?

Porque sabiendo que la tierra era redonda, creía poderle dar la vuelta.

LECCIÓN LXXXIX

¿ Cuántas veces visitó Colón la América ?

Cuatro, y en el tercer viaje descubrió el continente de la América del Sur ?

¿ De quién tomó la América su nombre ?

De Amérigo Vespucci ó Vespucio.

¿ Cuándo visitó Vespucio aquel continente ?

Siete años después de que Colón lo descubriera.

¿ Por qué se llamó América ?

Porque Amérigo ó Américo Vespucio fué el primero que publicó una descripción del país, y descubrió que no formaba parte de Asia.

¿ Por qué llamó Colón á los habitantes de este país, Indios ?

Porque creía que el país que había descubierto era la India.

¿ Qué clase de gente eran los indios ?

Salvajes, que vivían de la caza y de la pesca.

¿ Cuáles son los indígenas del N. de la América del Norte ?

Los esquimales ?

¿ Cómo viven los esquimales ?

En chozas hechas de nieve y hielo.

¿ De qué se visten ?

De pieles.

¿ Qué vehículos usan para viajar ?

Trineos tirados por perros.

¿ Á qué país pertenece Groenlandia ?

Á Dinamarca.

¿ Qué animales hay en Groenlandia ?

Perros, osos blancos y rengíferos.

¿ Qué clima es el de Groenlandia ?

Es muy frío, por lo cual el país es en extremo estéril.

¿ De qué se alimentan los habitantes ?

De pescado, focas, etc.

Modo de viajar de los Esquimales.

LECCIÓN XC

ESTADOS UNIDOS

¿ Qué país queda al N. de los Estados Unidos ? D-o del C-á.

¿ Qué océano queda al E. ? A-o.

¿ Qué golfo al S. ? M-o.

¿ Qué país al S. O. ? M-o.

¿ Qué océano al O. ? P-o.

¿ De cuantos estados se compone la República ? De 38.

¿ Cuál es el más grande ? T-s.