En la pintura, la escultura y la música.

*¿Por cuánto tiempo fué Roma dominadora de la Europa?*

Por espacio de 1,000 años.

*¿Qué catedral célebre hay en Roma?*

San Pedro, que es la iglesia más grande del mundo.

*¿Quiénes habitan la Turquía?*

Los turcos.

*¿Qué nombre se da al emperador de Turquía?*

Se le llama *Sultán*.

*¿Cuál es la religión de los turcos?*

La mahometana.

*¿Cuál es la religión dominante de los franceses, españoles, portugueses, italianos, y austriacos?*

La católica; pero en la mayor parte de Europa se toleran todos los cultos.

---

## LECCIÓN CXXII

*¿Por qué se llaman los turcos mahometanos?*

Porque son discípulos de Mahoma; es decir, creen en sus doctrinas.

*¿Por qué es notable Polonia?*

Por sus minas de sal.

*¿Qué curiosidad natural hay en Irlanda?*

La calzada de los gigantes.

*¿Por qué es notable Grecia?*

Por sus ruinas de templos antiguos, etc.

*¿Por qué es notable la ciudad de Venecia?*

Por sus canales y puentes.

*¿Sobre qué está edificada la ciudad de Venecia?*

Sobre 80 pequeñas islas.

*¿Cuántos canales hay en la ciudad?*

149, que sirven de calles.

*¿Cómo transita la gente por la ciudad?*

En embarcaciones llamadas *góndolas*.

*¿Qué hay cerca de la costa de Noruega?*

Un terrible remolino, muy peligroso para las embarcaciones.

*¿Qué suceden á éstas cuando caen en aquel remolino?*

Son completamente despedazadas; otro tanto ocurre aún á las ballenas.

---

## LECCIÓN CXXIII

### MAPA DE ASIA

*¿Cuál es el mayor largo de Asia?*

10,320 kilómetros, ó 6,450 millas, desde los Dardanelos hasta el Japón.

*¿Y su mayor anchura?*

8,560 kilómetros, ó 5,350 millas, desde el cabo Nordeste hasta la punta Sur de Malaca.

*¿Qué superficie tiene este continente?*

(Véase la página 12.)

*¿Cuántos habitantes tiene?*

(Véase la página 12.)

*¿Qué océano hay al N. de Asia?* Á-o.

*¿Cuál al E.?* P-o.

*¿Cuál al S.?* Í-o.

*¿Qué grandes divisiones se encuentran al O. y S. O. de Asia?* E-a y Á-a.

*¿Qué país se encuentra al N.?* S-a.

*¿A quién pertenece Siberia?*

Al gobierno ruso.

*¿Qué imperio hay al S. de Siberia?* C-o.

*¿Qué montañas hay entre Siberia y el Imperio Chino?* A-i.

*¿Qué país queda al O. de Siberia?* E-a.

*¿Qué montes hay entre Siberia y Europa?* U-s.

# MAPA DE ASIA

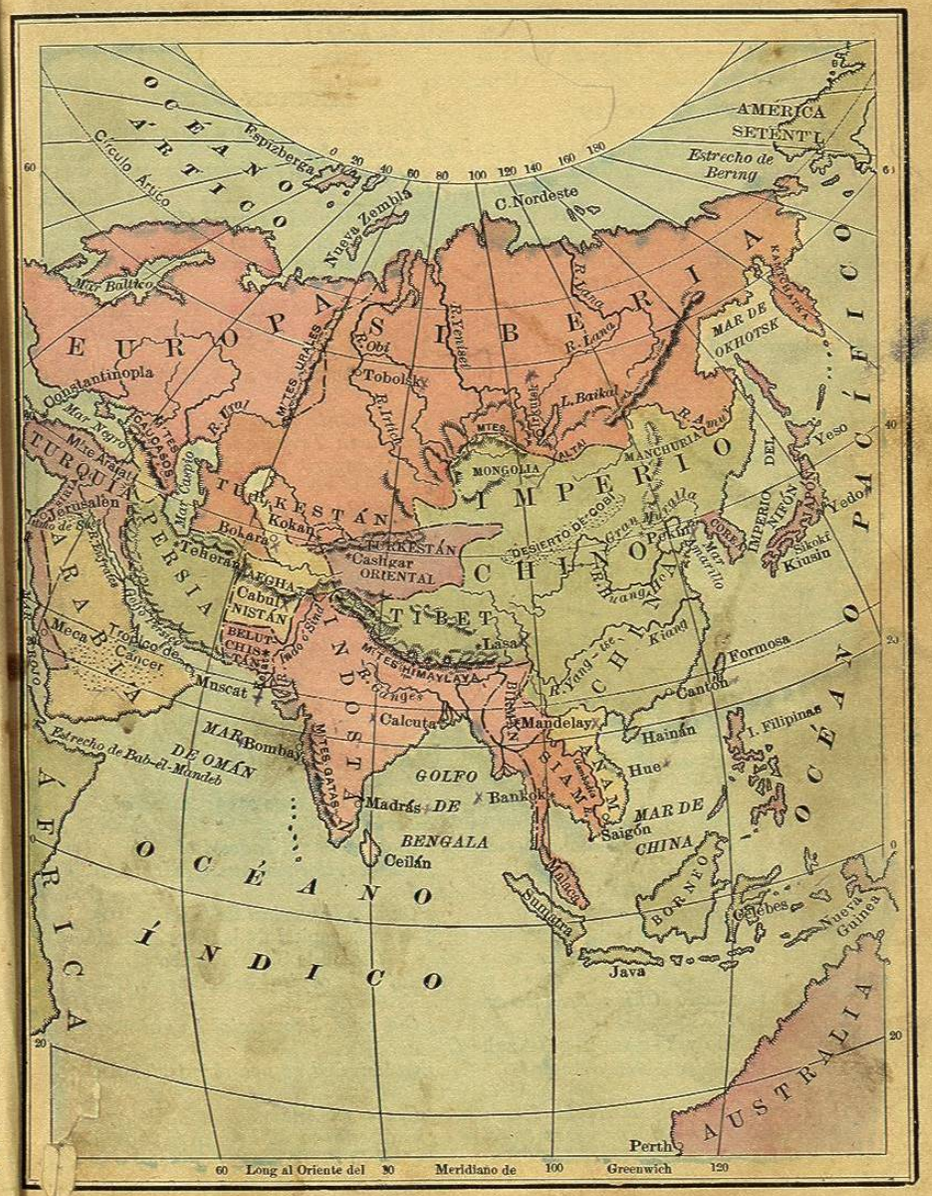

*¿ Qué país queda al S. O. del Imperio Chino?* I–n.
*¿ Qué montes entre el Indostán y el Imperio Chino?* H–a.

## LECCIÓN CXXIV

*¿ Qué país hay al O. de China?* T–n.
*¿ Qué mar al O. de la Tartaria ó Turkestán?* C–o.
*¿ Qué mar se encuentra al S. O. de Asia?* O–n.
*¿ Cuál entre Arabia y África?* R–o.
*¿ Qué país hay al N. de Arabia?* T–a.
*¿ Qué istmo une el Asia con el África?* S–z.
*¿ Qué mar se encuentra al N. de Turquía?* N–o.
*¿ Qué país queda al E. de Arabia?* P–a.
*¿ Qué golfo hay entre Arabia y Persia?* P–o.
*¿ Qué países pequeños hay entre Persia é Indostán?* A–n y B–n.
*¿Cuáles al S. del Imperio Chino?* B–n, S–m y A–m.
*¿ Qué mar hay al E. de Siberia?* O–k.
*¿ Qué mar se encuentra al E. del Imperio Chino?* A–o.
*¿ Cuál al S. de China?* C–a.
*¿ Qué gran golfo hay al S. de Indostán?* B–a.

## LECCIÓN CXXV

*¿ Qué estrecho hay á la entrada del mar Rojo?* B–b.
*¿ Qué estrecho hay entre Siberia y América?* B–g.
*¿ Cuál es la anchura de este estrecho?* 57 kilómetros.
*Qué lago hay al S. de Siberia?* B–l.
*¿ Cuáles son los tres grandes ríos de Siberia, que desembocan en el océano Ártico?* O–i, Y–i y L–a.
*¿ Qué río hay al N. E. del Imperio Chino?* A–r.
*¿ Qué dos ríos de la China desembocan en el mar Amarillo?*
H–o ó Amarillo y Y–g-tse-k–g ó Azul.
*¿ Qué río hay entre Siam y Anam?* C–a.
*¿ Cuál entre Europa y Turkestán?* U–l.
*¿ Qué río de Turquía desemboca en el golfo Pérsico?* É–s.
*¿ Qué río del Indostán desemboca en el golfo de Bengala?* G–s.

## LECCION CXXVI

*¿ Qué río se encuentra entre Indostán y Belutchistán?* I–o.
*¿ Qué península se halla al E. de Siberia?* K–a.
*Cuál al E. del Imperio Chino?* C–a.
*¿ Cuál al S. de Siam?* M–a.
*¿ Qué desierto hay en el Imperio Chino?* C–i.
*¿ Cuál en Arabia?* Arábigo.
*¿ Qué montes hay en la costa occidental de Indostán?* G–s.
*¿ Qué montes hay al N. de Turquía?* C–s.
*¿ Qué monte muy elevado é histórico se encuentra en Turquía?* A–t.
*¿ Qué imperio hay al E. de la China?* J–n.
*¿ Qué islas pertenecen á este imperio?* Y–o, N–n, K–ú y S–f.
*¿ Qué islas hay al S. E. de China?* F–a y H–n.
*¿ Qué isla grande se encuentra al S. del mar de China?* B–o.
*¿ Qué isla queda al E. de Borneo?* C–s.
*¿ Cuál al S. de Malaca?* S–a.

## LECCIÓN CXXVII

*¿ Qué isla queda al S. E. de Sumatra?* J–a.
*¿ Qué isla grande se encuentra al N. O. de Siberia?* N–a Z–a.
*¿ Cuál al S. del Indostán?* C–n.
*¿Cuál es el cabo que queda al N. de Asia?* N. E.
*¿ Cuál es la capital de Siberia?*
T–k es la capital de la Siberia Occidental, é I–k la de la Siberia Oriental.
*Cuál es la capital del Imperio Chino?* P–n.
*¿ Qué ciudad comercial hay al S. E. de China?* C–n.
*¿ Qué ciudad hay en el interior del Tibet?* L–a.
*¿ Cuáles en Anam?* H–e y S–n.
*¿ Cuál es la capital de Siam?* B–k.
*¿ Cuál la del Birmán?* M–y.



*¿ Cuál es la capital del Indostán?* C–a.
*¿ Qué ciudad hay al S. E.?* M–s.
*¿ Qué ciudad importante hay en el Turkestán?* B–a.
*¿ Cuál es la capital de Afganistán?* C–l.
*¿ Cuál es la capital de Persia?* T–n.
*¿ Qué ciudad importante hay al O. de Arabia?* M–a.
*¿ Que ciudad hay al S. E. de Arabia?* M–e.
*¿ Cuál es la capital de Turquía?* C–a (en Europa).
*¿ Qué ciudad hay en la isla de Nifón?* Y–o, la capital del Japón.
*¿ Qué mares se unen por el estrecho de Bab-el-Mandeb?* M–r R–o y O–o Í–o.
*¿ Y por el estrecho de Bering?* O–o Ár–o y O–o P–o.

## LECCIÓN CXXVIII

### PAÍSES

*¿ Dónde están situados*

Siberia? Imperio Chino?
Indostán? Arabia?
Persia? Turquía (asiática)?
Belutchistán? Afganistán?
Imperio del Japón?
Turkestán, ó Tartaria Independiente?
Indo-China { Birmán? Anam? Siam?

### CIUDADES PRINCIPALES

*¿ En qué países se encuentran*

Tobolsk? Mascate?
Irkutsk? Calcuta?
Pekín? Bombay?
Cantón? Madrás?
Lasa? Mandelay?
Bokhara? Bankok?
Cabul? Hué?
Kelat? Yedo?
Teherán? Meca?

### MARES, GOLFOS Y BAHÍAS

*¿ Dónde quedan*

El Mar Rojo?
El Mar Negro?
El Mar Caspio?
El Mar de Omán?
El Mar Amarillo?
El Golfo de Bengala?
El Golfo Pérsico?
El Mar de Okhotsk?
El Mar de China?

## LECCIÓN CXXIX

### MONTAÑAS

*¿ En qué países quedan*

Los Montes Urales?
Los Montes Altai?
Los Montes Himalaya?
Los Montes Gatas?
Los Montes Cáucasos? El Ararat?

### RÍOS

*¿ Qué dirección llevan y dónde desembocan*

El Obí? Huang-ho? Yenisei?
Lena? Cambodia? Ganges?
Indo? Éufrates? Ural?
Yang-tse-kiang?

### ISLAS

*¿ Dónde quedan*

Borneo? Nueva Zembla?
Nifón? Yeso? Kiusiú?
Sikok? Formosa? Hainán?
Celebes? Sumatra? Java?
Ceilán?

### PENÍNSULAS

*¿ Dónde se encuentran*

Malaca? Corea?
Kamtchatka? Arabia?
Indostán?

## HISTORIA Y DESCRIPCIÓN DEL ASIA.

### LECCIÓN CXXX

*¿ Cuál es el aspecto del continente asiático?*

La región setentrional consiste en extensas llanuras, en gran parte pantanosas; las centrales y el interior del Indostán, en vastas altiplanicies atravesadas por grandes cordilleras; y hay numerosos llanos estériles y desiertos.

*¿ Qué es el Himalaya?*

Una cadena de montañas las más elevadas del globo.

*¿ Cuáles son los picos más notables del Himalaya?*

El monte Everest, que alcanza una altura de 8,842 metros, ó 29,002 pies sobre el nivel del mar, y es por consiguiente el punto más elevado de nuestro planeta; el Dhawalagiri (8,190 metros, ó 26,826 pies), y el Kanchinjinga (8,590 metros, ó 28,178 pies).

*¿ Qué tiene de notable el continente de Asia?*

Que es el mayor de todos, pues comprende la tercera parte de la tierra conocida de nuestro globo.

*¿ Por qué se considera también como el más interesante?*

Por haber sido, según la Biblia ó el Génesis, la cuna de la raza humana, y el teatro de los grandes acontecimientos de la antigüedad.

*¿ Quiénes fueron los primeros que habitaron el Asia según los libros sagrados?*

Adan y Eva, que fueron colocados en el jardín del Edén.

*¿ Dónde se cree que quedaba este jardín?*

En Armenia, hacia el centro de la Turquía.

*¿ Cuántos años pasaron desde la creación de Adan y Eva hasta el diluvio?*

Como 1,700 años.

*¿ Cuál fué la causa del diluvio?*

La corrupción que había cundido en la raza humana.

*¿ Quién era Noé?*

Un hombre justo.

*¿ Qué mandó Dios á Noé que hiciera antes del diluvio?*

Que construyese un arca, para salvarse él y su familia, con un par de cada una de las especies de animales que existían.

*¿ Cuántos hijos tenía Noé, que se salvaron en el arca con él?*

Tres: Sem, Cam y Jafet.

*¿ Qué les sucedió á todos los seres vivientes?*

Perecieron todos, excepto los que entraron en el arca con Noé y su familia.

---

### LECCIÓN CXXXI

*¿ Por cuánto tiempo duró la inundación de la Tierra?*

Por 140 días.

*¿ Dónde se detuvo el arca después del diluvio?*

Sobre el monte Ararat, en Turquía?

*¿ Cuántos años después del diluvio vivieron los descendientes de Noé en un solo lugar?*

Como 100 años.

*¿ Qué hicieron éstos después de 100 años de vivir unidos?*



Los descendientes de los tres hijos de Noé, separándose, se establecieron en diferentes países.

*¿ Dónde se establecieron los descendientes de Sem?*

En Asia.

*¿ Los de Cam?*

En Africa.

*¿ Y los de Jafet?*

En Europa.

*¿ Cuántos años después del diluvio, nació Jesucristo?*

2,348.

*¿ Qué religión estableció Jesucristo sobre la Tierra?*

El cristianismo.

*¿ Cuándo vivió Mahoma?*

Como 600 años después de Jesucristo.

*¿ De dónde era Mahoma?*

Mahoma era árabe?

*¿ Qué fundó éste?*

Una religión llamada mahometismo.

*¿ Qué naciones profesan esta religión?*

Los turcos, los persas, los tártaros ó turcomanos, los árabes, algunos pueblos del Indostán, etc., todos los cuales son, por tanto, mahometanos.

*¿ Qué ciudad notable hay en Siria?*

La antigua ciudad de Jerusalén.

---

### LECCIÓN CXXXII

*¿ Qué magnífico edificio había en Jerusalén, en tiempo de Jesucristo?*

El templo de Salomón.

*¿ Qué ciudad notable hay en Arabia?*

Meca, donde nació Mahoma.

*¿ Qué monte célebre hay al N., cerca del mar Rojo?*

El monte Sinaí, en la cima del cual recibió Moisés los "diez mandamientos."

*¿ Qué animales hacen célebre la Arabia?*

Sus caballos, que son los mejores del mundo.

*¿ Qué producción vegetal célebre se encuentra en Arabia?*

El mejor café que existe.

*¿ Cómo se llaman los indígenas del Indostán?*

Indios ó Indostanos.

*¿ Cuál es la religión de los indios?*

El bracmanismo.

*¿ Qué gran procesión tienen los indios anualmente?*

Una en que sacan el carro de Juggernaut, que contiene su principal diós.

*¿ Qué hacen á veces algunos indios durante la procesión?*

Se echan en el suelo, para morir bajo las ruedas del carro, creyendo que este sacrificio los conducirá al Cielo.

---

### LECCIÓN CXXXIII

*¿ Qué árbol notable se da en el Indostán?*

El baniano, que muchas veces tiene hasta 3,000 troncos.

*¿ Qué peculiaridad tienen las ciudades de China?*

Casi todas ellas están rodeadas de una alta muralla.

*¿ Cuántas ciudades amuralladas hay en China?*

4,402.

*¿ Qué muralla notable hay en aquel imperio?*

La Gran Muralla, de 2,400 millas de largo, y unos 5 metros de elevación.

*¿ Cuántos años hace que se edificó dicha muralla?*

Unos 2,000 años.

*¿ Cuál es el espesor de la muralla hacia la parte superior?*



*Paisaje en China.*

Es tan ancha, que pueden andar sobre ella, de frente, seis hombres á caballo.

*¿ Con qué objeto se edificó?*

Con el de impedir las invasiones de los tártaros.

*¿ Qué planta es peculiar de China?*

El té.

*¿ Qué fabrican los chinos?*

Tejidos de seda y porcelana.

*¿ Cuál es la población del Imperio Chino?*

Este vasto país, el más populoso del mundo, tiene como 404,000,000 de habitantes.

*¿ Qué superficie tiene?*

Tiene próximamente una superficie de 11,655,000 kilómetros cuadrados, ó 4,526,000 millas cuadradas.

*¿ Cáules son las divisiones del imperio?*

La China (propiamente dicha), la Manchuria, la Mongolia, el Turkestán (Chino) y Tibet.

*¿ Cuál es la ciudad principal del Imperio Chino?*

Pekín, que queda á unos 80 kilómetros al S. de la Gran Muralla.

*¿ Cuántos habitantes tiene?*

Unos 2,000,000.

*¿ Qué costumbre singular hay en China?*

La de poner á las muchachas una especie de zapatos, que impide el que les crezcan los pies.

*¿ Por qué son notables los chinos?*

Por su habilidad en las artes mecánicas y en la industria, la tenacidad con que por largo tiempo rehusaron dar entrada en su país á los extranjeros y el gran respeto y obediencia con que tratan á sus padres.

*¿ Qué castigo tiene el hijo que usa de un lenguaje irrespetuoso para con sus padres, en China?*

Puede ser catigado con la muerte, pues semejante injuria se reputa, entre los chinos como uno de los delitos más graves que pueden cometerse.



## LECCIÓN CXXXIV

*¿ Qué es lo que compone el Imperio del Japón?*

Este Imperio se forma de varias islas al E. de China y tiene cerca de 40 millones de habitantes. El Japón ha progresado mucho en los últimos 30 años, gracias á la instrucción pública que está muy adelantada.

La capital del Japón, tiene más de 1 millón de habitantes.

Cuenta el Imperio japonés con buena marina de guerra y mercante.

*¿ Á qué nación pertenece la Siberia?*

Á la Rusia.

*¿ Qué personas envía á Siberia el gobierno ruso?*

Los presos políticos y criminales.

*¿ En qué ocupan á los presos?*

En los trabajos de las minas.

*¿ Cuál es el aspecto del país?*

La Siberia es uno de los países más fríos, desiertos y estériles del Globo?

*¿ En invierno, cómo viajan en Siberia?*

En trineos, tirados por perros ó por rengíferos.

*¿ Cuál es la superficie de Siberia?*

14,467,740 kilómetros cuadrados, ó 6,250,000 millas cuadradas.

*¿ Cuántos habitantes tiene?*

Sólo unos 19,000,000, siendo uno de los países relativamente menos populosos del globo, dada la gran extensión de terreno.

*¿ Cuál es la capital del Japón?*

*Yedo*, pero ahora se llama *Tokio*. Está unida por ferrocarril con *Yokohama*, puerto muy importante.

*¿ Qué gobierno tiene el Japón?*

Es una especie de monarquía constitutional. El *Micado* ó Emperador ejerce el poder espiritual y temporal.

---

## LECCIÓN CXXXV

### MAPA DE ÁFRICA

*¿ Qué mar hay al N. de África?* M–o.
*¿ Cuál entre África y Asia?* R–o.
*¿ Qué océano se encuentra al E. de África?* Í–o.
*¿ Cuál al O?* A–o.
*¿ Qué golfo al O. de África?* G–a.
*¿ Qué istmo une el África con el Asia?* S–z.
*¿ Entre qué mares está el istmo de Suez?* M–o y R–o.
*¿ Cómo se comunican estos mares?*
Por medio de un canal abierto en 1869, por Mr. Lesseps, ingeniero francés.
*¿ Qué río caudaloso desemboca en el golfo de Guinea?* N–r.
*¿ Qué río desemboca en el canal de Mozambique?* Z–i.
*¿ Qué ríos hay al S. de la Guinea?* C–o y N–s.
*¿ Dónde desemboca el Nilo?* M–o.
*¿ Dónde el Niger?* G–o de G–a.

---

## LECCIÓN CXXXVI

*¿ Qué montes hay en la parte setentrional del África?* A–s.
*¿ Cuáles en la parte occidental?* K–g.
*¿ Qué Estados se encuentran al N.?* Los de B–a.
*¿ Qué gran desierto hay al S. de la Berbería?* G–n D–o.
*¿ Qué países se encuentran entre el Gran Desierto y el Mar Rojo?* E–o y N–a.
*¿ Qué país grande se encuentra al S. del Gran Desierto?* S–n.
*¿ Qué país hay al O. de Sudán?* S–a.
*¿ Cuál al S. de Sudán?* G–a.
*¿ Cuál en la parte meridional del África?* C–a del C–o.
*¿ Qué países quedan en la costa del océano Índico?* S–í, Z–r, M–e, S–á y C–a.
*¿ Qué estados en el centro?* Los del C–o.

# MAPA DE ÁFRICA

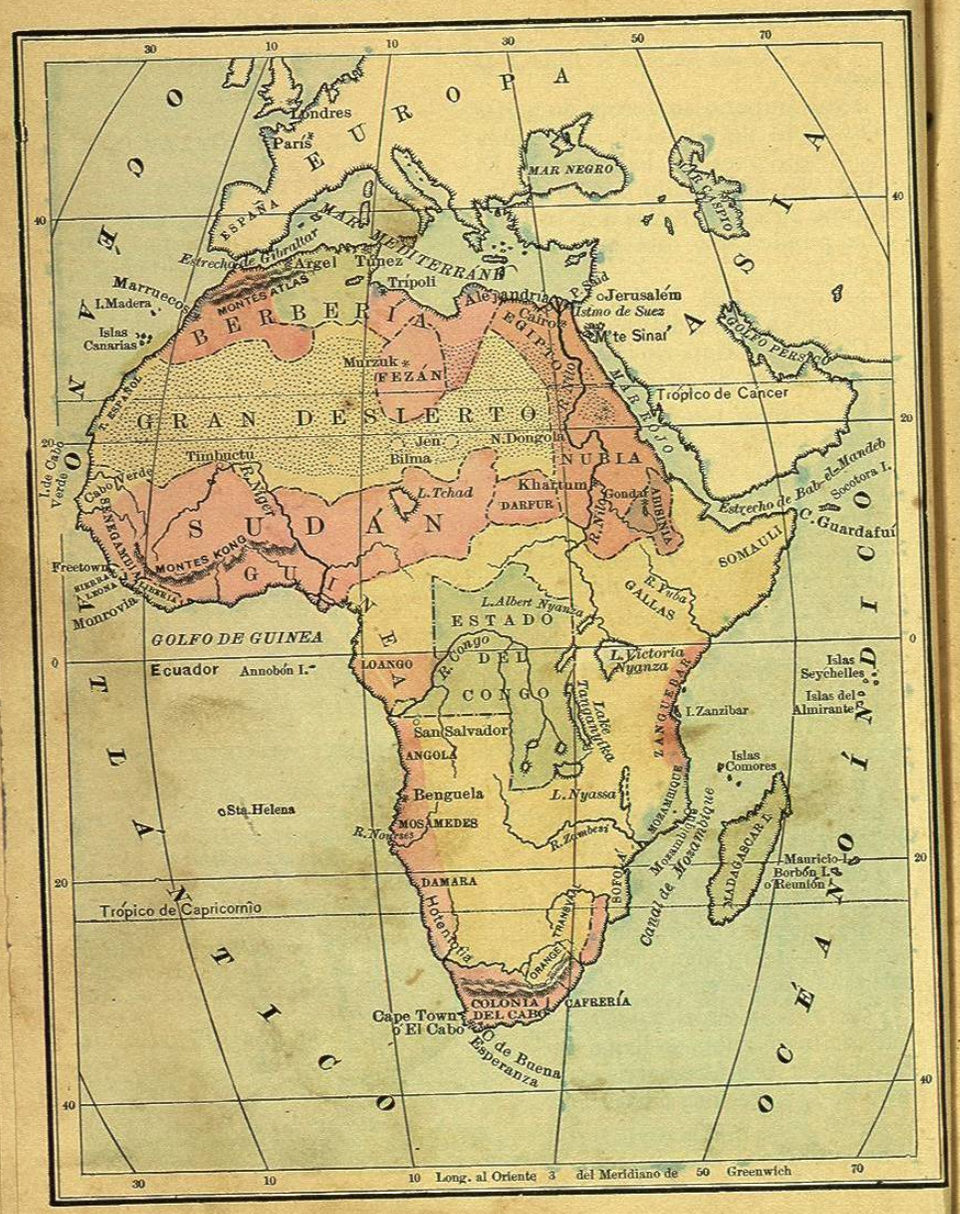




*¿ Qué pequeña república hay al O. de Guinea ?* L–a.

*¿ Qué colonia inglesa al N. O. de Liberia ?* S–a L–a.

*¿ Qué gran isla hay al S. E. de África ?* M–r.

*¿ Qué canal hay entre Africa y Madagascar ?* M–e.

---

## LECCIÓN CXXXVII

*¿ Qué islas hay al E. de Madagascar ?* M–o y B–n ó R–n.

*¿ Cuál al S. del golfo de Guinea ?* A–n.

*¿ Cuál al S. de Annobón ?* S–a H–a.

*¿ Cuáles al O. de Senegambia ?* G–o V–e.

*¿ Qué grupos de islas hay al N. O. de África ?* C–s y M–a.

*¿ Qué isla se encuentra al E. del cabo Guardafuí ?* S–a.

*¿ Qué grupos al N. E. de Madagascar ?* S–s y A–e.

*¿ Qué islas se encuentran en el canal de Mozambique ?* C–s.

*¿ Qué cabo hay al E. ?* G–í.

*¿ Cuál al S. ?* B–a E–a.

*¿ Cuál al O. ?* V–e.

---

## LECCIÓN CXXXVIII

*¿ Qué oasis notable hay en el Gran Desierto ?* F–n.

*¿ Qué otros oasis hay al S. de Fezán ?* B–a y J–n.

*¿ Qué lago hay en Sudán ?* T–d.

*¿ Cuáles al O. de Zanguebar ?* V–a N–a, A–o N–a y T–a.

*¿ Cuál al O. de Mozambique ?* N–a.

*¿ Qué estrecho se encuentra entre África y España ?* G–r.

*¿ Cuál á la entrada del Mar Rojo ?* B–b–el–M–b.

*¿ Qué río corre por Nubia y Egipto ?* N–o.

*¿ Qué ciudades hay en la Berbería, sobre el mar Mediterráneo ?* A–l, T–z y T–i.

*¿ Qué ciudades principales se encuentran en Egipto ?* C–o y A–a.

*¿ Qué ciudad hay cerca del cabo de Buena Esperanza ?* C–o.

*¿ Cuál en la Berbería, cerca del Atlántico ?* M–s.

## LECCIÓN CXXXIX

### PAÍSES, ETC.

*¿ Dónde están situados*

Egipto ? Zanguebar ?
Nubia ? Abisinia ?
El Gran Desierto ?
Sudán ? Guinea ?
Etiopía ? Senegambia ?
Berbería, ó los Estados Berberiscos ?
Mozambique ? Fezán ?
Liberia ? Sierra Leona ?
La Colonia del Cabo ?
Somaulí ? Gallas ? Sofolá ?
Cafrería ? Darfur ? Damara ?
Angola ? Loango ?

### CIUDADES Y PUEBLOS

*¿ En qué países y cómo están situados*

El Cairo ? Trípoli ?
Marruecos ? Monrovia ?
Túnez ? San Salvador ?
Gondar ? Mozambique ?
El Cabo ? Nueva Dongola ?
Timbuctú ? Benguela ?
Alejandría ? Khartum ?
Argel ? Freetown ?

---

## LECCIÓN CXL

### ISLAS Y CABOS

*¿ Dónde quedan*

Mauricio ó Isla de Francia ?
Borbón ? Madagascar ?
Socotora ? Comores ?
Annobón ? Santa Helena ?
Cabo Verde ? Canarias ?
El cabo Guardafuí ? El cabo Verde ?
El cabo de Buena Esperanza ?

### RÍOS

*¿ En qué dirección corren y dónde desembocan*

El Nilo ? Níger ? Congo ?
Nourses ? Zambesi ? Yuba ?

MONTAÑAS

*¿ Dónde quedan*

Los montes Atlas?
Los montes Kong?

---

**LECCION CXLI**

*¿ Cuál es la superficie del África?*
(Véase la página 12.)

*¿ Y su población?*
(Véase la página 12.)

*¿ Cuál es su clima?*
En lo general es más cálido que el de los demás países de la Tierra.

*¿ Qué raza del género humano es natural de África?*
La etiópica ó africana.

*¿ Quiénes habitan el Gran Desierto?*
Tribus de árabes errantes.

*¿Cuál es la extensión del Gran Desierto?*
Tiene unos 4,800 kilómetros, ó 2,000 millas, de E. á O.; y 1,600 kilómetros, ó 1,000 millas, de N. á S.

*¿ Cuáles son los animales más comunes en África?*
El león, leopardo, elefante, rinoceronte, hipopótamo, antílopes, camello, girafa, zebra, y varias especies de monos.

*¿ Qué país notable se encuentra al N. E. de África?*
Egipto.

*¿ Qué población tiene?*
87,400,000 habitantes.

*¿ Cómo está gobernado?*
Por un virey, llamado *Khedive*, palabra árabe que significa rey.

*¿ Qué países comprende el vireinato egipcio?*
Egipto, Nubia y Kordofán.

*¿ Cuál es la capital de Egipto?*
Cairo, con 350,000 almas.

*¿ Qué era Egipto antiguamente?*
Un gran imperio, y fué por muchos siglos la morada de las artes y las ciencias.

*¿ Cuál de sus ciudades antiguas alcanzó mayor importancia?*
Alejandría, fundada por Alejandro el Grande, que fué famosa por sus monumentos, su biblioteca y otros edificios.

*¿ Qué hay en Egipto que dé pruebas de su arte y de su antigua grandeza?*
Pirámides, obeliscos, catacumbas, la esfinge, etc.



*Animales de África.*





*Una calle de Cairo.*

*¿ Con qué objeto?*
Para que sirviesen de tumbas á los reyes, y también, según se supone, de observatorios.

*¿ Qué es la esfinge?*
La estatua de un monstruo que representa una leona, con pechos, cuello y cabeza de mujer.

*¿ Qué hay de notable en Egipto, respecto de las aguas?*
Que en muchas regiones de aquel país jamás llueve.

*¿ Cómo está regado el país?*
Con fuertes rocíos, y con las inundaciones periódicas del Nilo.

*¿ Qué es lo que causa estas inundaciones del Nilo?*
Las abundantes lluvias que caen cerca de su nacimiento.

*¿ Dónde nace este río?*
En los lagos Nyanza, recién-descubiertos. (*Véase el mapa.*)

---

**LECCIÓN CXLII**

*¿ Cuál es el tamaño de la pirámide de Cheops?*
Su altura es 262 metros, ó 800 pies.

*¿ Cuántos años se emplearon en edificar esta pirámide?*
20 años, trabajando en ella de 100 á 200,000 hombres.

*¿ Cuándo se supone que fueron levantadas estas pirámides?*
Como 900 años antes de Jesucristo.

*¿ Quiénes las hicieron edificar?*
Los Faraones, ó reyes de Egipto.

**LECCIÓN CXLIII**

*¿ Qué viento reina algunas veces en Sahara, ó el Gran Desierto?*
El *Simún*, viento ardiente y sofo-