mo diámetro, trácese una semicircunferencia; levántese en D la perpendicular D A, y tirando las cuerdas A C y A E, llévese sobre la primera de A á B el lado a b, por B trácese B F paralela á C E, y la recta A F será el lado homólogo á a b del polígono buscado.

Demostración.—Por ser semejantes los triángulos A C E y A B F, se tiene:

$$AC : AE :: AB : AF$$

$$AC^2 : AE^2 :: AB^2 : AF^2$$

como $AC^2 = m.\ CE$ y $AE^2 = n.\ CE$ (530—3°)

sustituyendo estos valores en la proporción anterior y simplificando

tendrémos: $m : n :: AB^2 : AF^2$

ó sustituyendo $m : n :: ab^2 : AF^2$

y como las áreas de los polígonos son proporcionales á los cuadrados de los lados, se infiere que la área del polígono construido sobre la recta A F, es á la área del polígono p como m es á n; que es lo pedido en el problema.

TERCERA PARTE.

VOLUMENES.

Planos y rectas.

590.—Hasta aquí nos hemos ocupado del estudio de las propiedades de las figuras que pueden estar contenidas en un plano, considerando las relaciones que existen entre las partes que las forman, con el fin de deducir de los elementos conocidos los desconocidos. Esta parte de la geometría elemental se denomina por esta razón *geometría plana*. Vamos ahora á tratar de las figuras considerándolas en el espacio y de los cuerpos con sus tres dimensiones, cuyo estudio constituye lo que comunmente se llama *geometría en el espacio*.

Nos ocuparémos primero de las relaciones de las líneas rectas con los planos; en seguida de las á que dan lugar los planos entre sí, y por último, de los cuerpos formados de planos ú originados por el círculo, valuando sus áreas y sus volúmenes.

591.—*Plano es una superficie tal que si se toman dos puntos cualesquiera sobre esta superficie y se les reune por una recta, esta línea tendrá todos sus puntos en la superficie.*

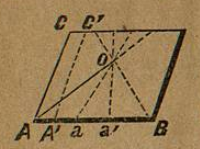

Figura 261.

Todo plano debe considerarse como una superficie indefinida en longitud y latitud, á menos que no se fijen los puntos que lo limitan. Puede concebirse el plano engendrado por el movimiento de una recta o A (fig. 261) que al girar al rededor del punto o, al-

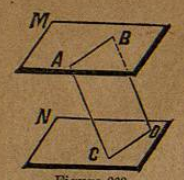

Figura 269.

Por una parte las rectas A B y C D están en el mismo plano A D, y por otra estando colocadas sobre los planos paralelos M y N no podrán encontrarse prolongadas, luego son paralelas.

605.—*Las partes* A C *y* B D (fig. 269) *de paralelas comprendidas entre dos planos paralelos son iguales.*

Por el supuesto los lados A C y B D son paralelos, y por el teorema anterior lo son también A B y C D, luego la figura A B C D será paralelógramo, por lo cual A C=B D (449)

De esto resulta que *dos planos paralelos tienen todos sus puntos equidistantes;* pues bastaría imaginarse que el plano A D fuera perpendicular para que las rectas A C y B D midiesen las distancias de los dos planos.

606.—*La recta* A B (fig. 270), *perpendicular á un plano* M, *lo es también á cualquiera otro plano* N *que le es paralelo.*

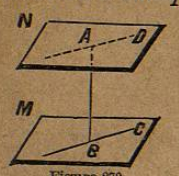

Figura 270.

Si por A B se hace pasar un plano cualquiera A B C, por ser A B perpendicular á M, el ángulo A B C será recto; por ser N paralelo á M, la intersección A D es paralela á B C (604) y por tanto el ángulo B A D también será recto. Como otro tanto sucedería con cualquiera otra recta que pase por A y esté en el plano N, se infiere que A B es perpendicular al plano N.

607.—*Toda recta* A B [fig. 271] *paralela á otra* C D, *lo es igualmente á cualquier plano* M *que pase por la segunda sin pasar por* A B.

Estando las dos rectas A B y C D en el mismo plano N por ser paralelas, la recta A B no podría encontrar el plano M sino en la intersección común de los dos planos, esto es, sobre la prolongación de C D; pero como por el supuesto no es esto posible, tampoco podrá encontrar A B al plano M, y por tanto será paralela á él.

608.—*Si una recta* A B (fig. 271) *es paralela á un plano* M, *cualquier plano que pase por la recta* A B *encontrará al primero según una paralela á ella.*

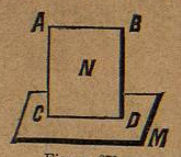

Figura 271.

Porque A B prolongada no podría cortar á C D sin encontrar al plano M, lo que sería contra el supuesto.

De esto se deduce, que cualquiera recta paralela á A B tirada por un punto del plano M, está toda comprendida en este plano.

609.—*Las partes de paralelas A C y B D* (fig. 271) *comprendidas entre una recta A B y un plano M que le es paralelo son iguales.*

Supuesto que la figura A D es paralelógramo, y en todo paralelógramo los lados opuestos son iguales.

Como en el caso de ser A C y B D perpendiculares al plano M, el teorema es igualmente cierto, se infiere que, *una recta paralela á un plano tiene todos sus puntos equidistantes de éste.*

610.—*Dadas dos rectas A B y C D* (fig. 272) *en el espacio que no se cortan ni son paralelas, por una de ellas AB solo se puede hacer pasar un plano paralelo á la otra C D.*

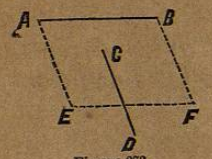

Figura 272.

Si por un punto cualquiera A de la recta A B se tira una paralela A E á C D, y se hace pasar por A B y A E un plano, éste será paralelo á C D (607). Además, como todas las paralelas á A E y por lo mismo á C D que pasan por un punto de A B, están en un mismo plano, no hay más de uno solo que satisfaga á la cuestión.

611.—*La menor distancia de dos rectas en el espacio, AB y CD* (figura 273) *que no se cortan, es la perpendicular OO' común á ambas.*

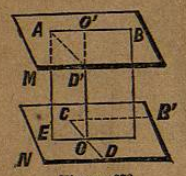

Figura 273.

Por el punto A tiremos A D' paralela á C D, y hagamos pasar el plano M por A B y A D' que será paralelo á la recta C D. Por el punto C tiremos CB' paralela á A B, y hagamos pasar el plano N por C D y C B' que será paralelo á la recta A B. La menor distancia de las rectas A B y C D será la de los planos paralelos M y N que las contienen. Por la recta A B hagamos pasar el plano B E perpendicular á M y á N.

La intersección de este plano con N encuentra la recta C D en el punto O, y levantando en este punto una perpendicular á C D, que quedará en el plano B E, se tendrá por último la recta O O' que es la menor distancia de las rectas, siendo perpendicular á ambas y á los planos que las contienen.

El ángulo de dos rectas A B y C D en el espacio que no se cortan, es el B A D' que forma una de ellas A B con otra recta A D' tirada por uno de sus puntos A y paralela á la otra C D.

612.—*Dos rectas AB y CD* (fig. 274) *que no están en el mismo plano, quedarán cortadas en partes directamente proporcionales por tres planos paralelos, M, N y P.*

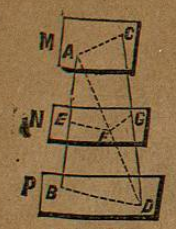

Figura 274.

Reuniendo los puntos A y D y tirando las rectas B D, E F, F G y A C por los puntos de intersección de las rectas A B, A D y C D con los planos M, N y P, se tendrá E F paralela á B D (604) y F G paralela á A C, por lo que (510)

$$AE : EB :: AF : FD$$
$$AF : FD :: CG : GD$$
luego $$AE : EB :: CG : GD$$

613.—Problemas.—I.—*Bajar una perpendicular á un plano M,* (fig. 275) *desde un punto P tomado fuera de él.*

Señálense tres puntos del plano A, B y C equidistantes de P, por ellos hágase pasar un círculo cuyo centro O será el pié de la perpendicular (593).

II.—*Desde un punto O de un plano, levantarle una perpendicular* (fig. 275).

Tomando O como centro trácese un círculo, y en tres puntos de su circunferencia levántense tres oblícuas iguales A P, B P y C P, y determinando el punto P en que coinciden sus extremos, éste será el otro de la perpendicular buscada.

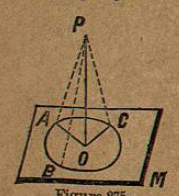

Figura 275.

Haciendo coincidir con el punto O los vértices de los ángulos rectos de dos escuadras A O P y C O P, puede determinarse igualmente la perpendicular O P por la línea de unión de las escuadras (593).

III.—*Levantar un plano M* (fig. 275) *perpendicular á una recta OP: 1° por un punto O de la recta y 2° por un punto C fuera de ella.*

1° En el punto O levántese la recta O C perpendicular á O P. En seguida, en un plano diferente de P O C, levántese otra perpendicular A O á P O, y haciendo pasar un plano por C O y A O, se tendrá el plano pedido.

2° Bájese del punto C la perpendicular C O á P O; determinado el punto O, levántese por él otra perpendicular á P O, pero en un plano diverso al P O C. Haciendo pasar un plano por las dos perpendiculares C O y O A, se tendrá resuelto el problema.

IV.—*Tirar desde un punto P* (fig. 276) *una perpendicular á una recta A B contenida en un plano B.*

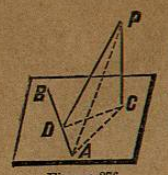

Figura 276.

Desde P bajarémos P C perpendicular al plano B. De su pie C tirarémos C D perpendicular á A B, y reuniendo los puntos P y D, la recta P D será la perpendicular pedida.

Para demostrar que el ángulo P D A es recto, tiremos las rectas C A y A P, siendo rectángulos los triángulos P C A y C D A, se tendrá:

$$PA^2 = PC^2 + CA^2$$

pero como $PC^2 = PD^2 - CD^2$ y $CA^2 = CD^2 + AD^2$

sustituyendo resulta $PA^2 = PD^2 + AD^2$

luego el ángulo P D A es recto.

Como el plano P C D es perpendicular á A B, este problema es también el procedimiento para *tirar desde un punto P un plano perpendicular á una recta A B.*

V.—*Por un punto A* (fig. 277) *tirar un plano paralelo á otro M.*

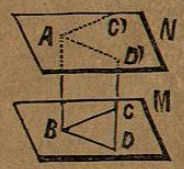

Figura 277.

En el plano dado M, se trazarán dos rectas B C y B D, que se corten en el punto B. Por el punto A se tirarán A C' paralela á B C, y A D' paralela á B D; haciendo pasar un plano N por A C' y A D', este será el plano pedido.

VI.—*Por un punto A* (fig. 277) *tirar una recta paralela á un plano M.*

Por un punto cualquiera B del plano M, trácese la recta B D, tírese A B, por el punto D llévese D D' paralela é igual á A B, y reuniendo los puntos A y D' se tendrá la recta A D' paralela al plano M. Como por el punto B pueden trazarse una infinidad de rectas, y por A tirarse otras tantas paralelas, el problema admite un número indefinido de resoluciones.

VII.—*Por un punto A* (fig. 278) *tirar un plano paralelo á dos rectas cualesquiera B C y D E, que no estén situadas en el mismo plano.*

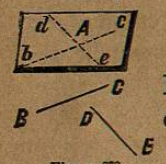

Figura 278.

Por A tírense b c y d e respectivamente paralelas á B C y D E, y haciendo pasar un plano por b A c y d A e quedará resuelta la cuestión.

guno otro de sus puntos toca la recta A B. Igualmente puede considerarse un plano engendrado por el movimiento de una recta A C que resbala sobre otra A B, y que en sus diversas posiciones permanece paralela á su primera situación A C.

La intersección de dos planos es una línea recta (370).

Dos planos que tienen tres puntos comunes que no están en línea recta coinciden en toda su extensión (370).

Un plano queda determinado en general por la posición de tres puntos que no están en línea recta; por dos rectas que se cortan en un punto, ó por dos paralelas. También puede fijarse la posición de un plano que pasa por un punto, agregando la condición de que sea perpendicular á una recta ó paralelo á otro plano.

592.—*Siempre que una recta* P A *sea perpendicular á la vez á otras dos* A B *y* A C (fig. 262) *colocadas en dos planos diferentes* P A B *y* P A C *que pasan por* P A, *esta recta será igualmente perpendicular á cualquiera otra* A E *que pase por el punto común* A *de intersección y que esté contenida en el plano* C A B *determinado por las rectas* A B *y* A C.

Por la hipótesis del teorema son rectos los ángulos P A B y P A C, y para demostrar que P A es perpendicular á A E, tendrémos que probar que el triángulo P A E es rectángulo en A, esto es, que el cuadrado de P E es igual á la suma de los cuadrados de los catetos P A y A E.

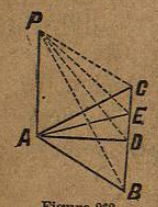

Figura 262.

Tomemos A B=A C, tiremos las rectas B C, B P y P C, con lo que resultarán los triángulos A B C y P B C que serán isósceles, el primero por construcción y el segundo porque siendo iguales los triángulos rectángulos P A B y P A C (385) se tiene P B=P C. Tomando el punto D en el medio de B C, base de los triángulos isósceles, y tirando las rectas A D y P D, éstas serán perpendiculares á B C en el punto D (428).

Considerando el triángulo rectángulo P E D, se tiene:

$$P\,E^2=P\,D^2+E\,D^2 \ldots. \quad [1]$$

Ahora determinarémos el valor de $P\,D^2$ considerando sucesivamente los triángulos rectángulos P D C, P A C y A D C, y luego el de $E\,D^2$ en el triángulo A D E.

$$P\,D^2=P\,C^2-C\,D^2=P\,A^2+A\,C^2-C\,D^2=P\,A^2+A\,D^2+C\,D^2-C\,D^2$$

ó reduciendo: $P\,D^2=P\,A^2+A\,D^2 \ldots.(2)$

en el triángulo A D E: $E\,D^2=A\,E^2-A\,D^2 \ldots.(3)$

sustituyendo los valores de las ecuaciones [2] y [3] en la [1] finalmente resulta:

$$P\,E^2=P\,A^2+A\,E^2$$

que es lo que teníamos que demostrar.

Siendo P A perpendicular á todas las rectas que, como A E pasan por A, se infiere que: *cuando una recta* P A *es perpendicular á la vez á dos rectas* A B *y* A C, *lo será al plano que pasa por éstas*, y recíprocamente, siempre que una recta sea perpendicular á un plano, lo será también á toda recta que esté situada en él y pase por el pié A de la perpendicular P A.

593.—*Si desde un punto* P (fig. 263) *se baja una perpendicular* P O *al plano* D E *y varias oblícuas* P A, P F, P C; 1° *la perpendicular* P O *es la menor;* 2° *las oblícuas* P A, P F, *que se separan igualmente del pié de la perpendicular, son iguales; y* 3° *la* P C *que se separa más es la mayor.*

1° En cualquiera de los triángulos rectángulos P O A, P O F P O C, el cateto P O, que es la perpendicular al plano, es menor que cualquiera de las oblícuas P A, P F y P C, que son las hipotenusas de los triángulos.

Por esta razón, la distancia de un punto á un plano se mide por la perpendicular bajada al plano.

2° Siendo A O=F O=O B, las oblícuas A P, F P y B P serán iguales por ser hipotenusas de los triángulos iguales (385) A O P, F O P y B O P.

3° Si O C>O A podemos transportar el triángulo P O A sobre su igual P O B, que está en el mismo plano que la oblícua P C, y como P C>P B (401) y P B=P A se infiere que P C>P A.

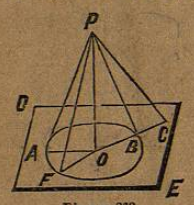

Figura 263.

594.—De lo que antecede resulta: 1° *que si se hace girar un ángulo recto* P O A *al rededor de uno de sus catetos* P O, *el otro* O A *describirá un plano* A O B *perpendicular al primer lado; y* 2° *todas las perpendiculares* O A, O F, O B *á una recta* O P *levantadas en uno de sus puntos* O, *están en un mismo plano* D E *perpendicular á dicha recta.*

595.—*Por un punto* O *tomado en una recta* O P (fig. 263) *ó por otro fuera de ella* A, *siempre se le puede tirar un plano perpendicular, pero no se puede tirar más que uno solo.*

Si hacemos pasar un plano por la recta P O observarémos que del punto O y desde el A siempre se puede tirar una perpendicular á O P, y al girar al rededor de ésta, engendrará el plano A O F B que le es

perpendicular, pero como no se puede tirar desde un punto más que una sola perpendicular á O P, resulta que no habrá tampoco más de un plano perpendicular que pase por el punto dado.

596.—*Desde un punto* O *tomado en un plano* (fig. 263) *ó por otro fuera de él* P, *no se puede tirar más que una perpendicular al plano.*

Suponiendo engendrado el plano D E por el movimiento de O A alrededor de O P, se comprende que en el punto O no se puede levantar á la recta O A más perpendicular que O P, así como desde el punto P no se puede bajar más que una perpendicular á O A.

597.—La proyección de un punto P sobre un plano (fig. 264) es el pié B de la perpendicular P B bajada de ese punto sobre dicho plano.

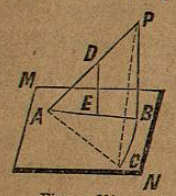

Figura 264.

La proyección de una recta D P es la serie de todos los piés de las perpendiculares bajadas de los puntos de la recta sobre el plano. Como todas las perpendiculares son paralelas entre sí, quedarán en un mismo plano P A B, cuya intersección con el M N será una recta A B. En consecuencia, siendo la proyección de una recta otra línea recta, bastará determinar la proyección de dos de sus puntos para tener la de toda la recta.

598.—*El ángulo de una recta con un plano, cuando no es perpendicular á éste, es el que forma con su proyección. Este ángulo es el menor de todos los que forma la recta con las líneas que pasan por su pié* A.

En efecto, si por el pié A (fig. 264) tiramos otra recta cualquiera A C=A B y reunimos los puntos P y C, resultarán dos triángulos P B A y P C A, en los que los ángulos P A B y P A C están formados por lados iguales; pero siendo la perpendicular P B menor que la oblícua P C, el ángulo opuesto á la primera recta, P A B será menor que cualquiera otro P A C (432).

599.—*Dos planos* M N, *perpendiculares á una misma recta* P A *no pueden encontrarse, y por lo mismo serán paralelos.* [fig. 265].

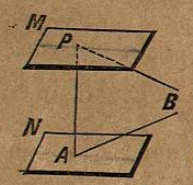

Figura 265.

Si los planos pudieran encontrarse, desde el punto B de su intersección común podrían tirarse las rectas B P y B A, que por estar contenidas en planos perpendiculares á la misma recta, serán ambas perpendiculares á P A, lo cual es un absurdo [396].

600.—*Cuando dos rectas son paralelas, el plano perpendicular á una de ellas lo será también á la otra.*

Si el plano M N [fig. 266] es perpendicular á P A, demostrarémos que también lo es á su paralela Q B. Tiremos la recta A B y su perpendicular C D. La línea Q B por ser paralela á P A, estará en el mis-

mo plano P A B Q que ella, y el ángulo Q B A será recto. Tomemos B C=B D y tiremos las rectas A C, A D, P C y P D.

Los triángulos rectángulos P A C y P A D son iguales (385), luego P C=P D.

Siendo isósceles el triángulo P C D, la recta P B tirada á la mitad de su base será perpendicular á C D. En consecuencia siendo C D perpendicular á A B y á B P, lo será igualmente al plano A B P y á B Q contenida en él [592]. Por último, si Q B es perpendicular á la vez á B A y á C D, lo será al plano M N que contiene estas rectas.

601.—*Dos rectas* P A *y* Q B (fig. 266) *perpendiculares á un mismo plano* M N, *son paralelas entre sí.*

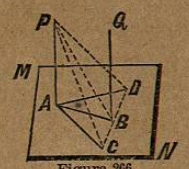

Figura 266.

Si Q B no fuera paralela á P A por el punto B, se le podría tirar una paralela diferente de Q B, la cual [600] sería perpendicular al plano M N, resultando que desde el mismo punto B podrían levantarse dos perpendiculares al mismo plano, lo que no es admisible.

602.—*Dos rectas* A a, B b *paralelas á una tercera* C c, *son paralelas entre sí* [fig. 267].

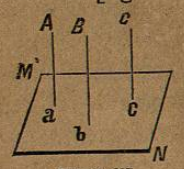

Figura 267.

Si tiramos un plano M N perpendicular á C c, este lo será á las rectas A a y B b [600], y siendo estas perpendiculares al mismo plano serán paralelas entre sí [601]

603.—*En el espacio dos rectas* A B *y* C' D' [fig. 268] *pueden ser perpendiculares á una misma recta x y, sin ser paralelas entre sí.*

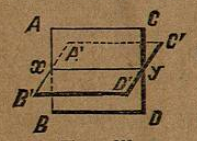

Figura 268.

Si suponemos que el rectángulo A D gire al rededor de una recta *x y*, paralela á sus bases en cualquiera posición como A' D' el lado D' C' será perpendicular á *x y*, sin ser paralelo á A B, porque se encuentra en un plano diferente.

Debemos hacer notar que prolongadas indefinidamente estas rectas, no se encuentran. Igualmente observarémos, que en el espacio, á una recta *x y*, se le pueden levantar una infinidad de perpendiculares desde el mismo punto *x*.

604.—*Las intersecciones* A B *y* C D (fig. 269) *de dos planos paralelos* M *y* N *con otro plano* B C, *son dos rectas paralelas.*